Sürüt II. Dönem

METEKSAN

Friendship in Freedom
1016 Sixteenth Street, Northwest
Suite 700, Washington DC. 20036

Light
Stimulated
Emission of
Radiation.

LAZ

LA-

LASER

Do very lit LASER

L ASER

METEKSAN Anonim Şirketi'nde basılmıştır.
Kod No. BK.1/65.A4.40

01,02,1991

D.'YİN ADI: TFD-14 OHM YASASI

AMAÇLAR: 1- Voltmetre ve Ampermetrenin kullanımını öğrenmek
karekteristiğini bul 2- Ohmik ve nonohmik devre elemanlarının gerilim-akım
? ni bulmak. 3- Bu yolla eşitli devre elemanlarının ve metallerin direnç
bulmak. 4- Devredeki herbir devre elemanının karakteristiğini

ARAÇLAR: DC güç kaynağı, ampermetre, voltmetre, dirençler, ampül, bağlantı kabloları.

TERİMLER:
Ampermetre: Devreden geçen akım miktarını gösteren iç direnci ihmal edilebilir devreye seri olarak bağlanan bir araçtır.
Voltmetre: Devrenin yada direncin uçları arasındaki gerilim (potansiyel) farkı ölçmeye yarayan, devreye paralel olarak bağlanan, iç direnci büyük bir araçtır.
Direnç: Her madde için gerilim ve akım arasındaki özel bir orandır.

Seri bağlı dirençlerde akım hepsinde aynıdır. Dirençlerin toplamı tüm dirençlerin cebirsel toplamıdır.
Paralel bağlı dirençlerde gerilim hepsinde aynıdır. Toplam direnç tersi tüm dirençlerin terslerinin (evirmeye göre) toplamına eşittir. Aşağıda seri bağlı ve paralel bağlı direnç devreleri için birer örnek verilmiştir.

Seri Bağlı Dirençler:

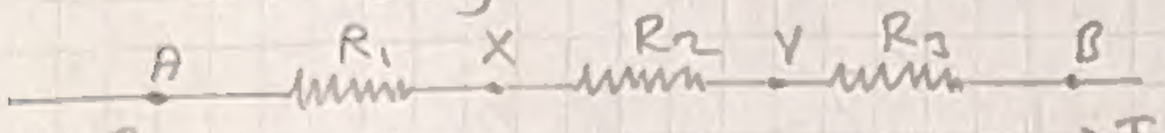

$V_{AB} = I R_{Total}$

$V_{AX} = I R_1$
$V_{XY} = I R_2$ $\Rightarrow V_{AB} = V_{AX} + V_{XY} + V_{YB}$
$V_{YB} = I R_3$

$V_{AB} = I (R_1 + R_2 + R_3)$

$R_{Total} = R_1 + R_2 + R_3$ $\quad R_1 + R_2 + R_3 = \frac{V_{AB}}{I}$

Paralel Bağlı Dirençler:

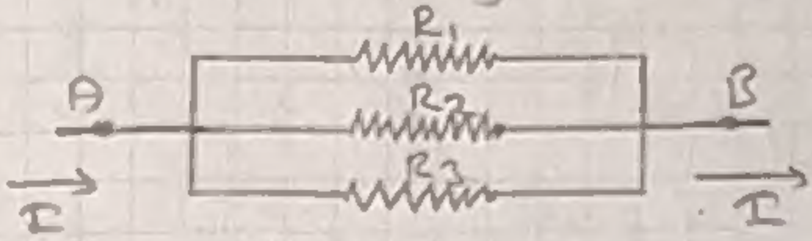

$I_1 = \frac{V_{AB}}{R_1}$

$I_2 = \frac{V_{AB}}{R_2} \Rightarrow I = I_1 + I_2 + I_3$

$I_3 = \frac{V_{AB}}{R_3}$ $\quad I = V_{AB} \left(\frac{1}{R_1} + \frac{1}{R_2} + \frac{1}{R_3}\right)$

R_{Total} in paralel $\Rightarrow \frac{1}{R_T} = \frac{1}{R_1} + \frac{1}{R_2} + \frac{1}{R_3}$

KURAMSAL BİLGİ: Elektrik bir yük akımıdır. Bu akım (I) telden akan yükle orantılıdır. "Birim zamanda akan yük akımıdır." Birimi Amper (A) $= \frac{C}{s}$ 'dir. 1A = 1C/1S dir.
Metalik iletkenlerde hareket eden parçacıklar negatif yüklü elektronlardır. Bir metaldeki I akımının uçları arasındaki potansiyel farkına bağlılığı $I = U/R$ ile ifade edilir. R'nin birimi amper başına volt (U/A)'dır. Birimi Ohm'dur. Ω ile ifade edilir. Bu yasaya uyan dirençler ohmic uymayanlar nonohmic direnç olarak adlandırılır.
Ohm yasası "Sabit bir sıcaklıkta, bir metalik iletkenin uçları arasındaki potansiyel farkın iletkenden geçen akıma oranı sabittir." şeklinde tanımlanır.

Bazı maddeler için Elektrik alanının akım yoğunluğuna oranı direnç olarak tanımlanır.

$\rho = \frac{\vec{E}}{\vec{J}}$ Bu eşitlik özellikle ohm yasasına uyan metaller için geçerlidir. Ohmik olmayan maddeler için $\rho_T = \rho_0 [1 + \alpha (T - T_0)]$ 'dır. $\alpha \rightarrow C^{\circ -1}$

Bu tip maddelerde daha önceden belirttiğimiz nonohmik maddeler denir. Şimdi bazı iletkenler için ρ'nın sıcaklıkla nasıl değiştiğini gözlemleyelim.



Şimdi Ohm Kanununu inceleyelim.

$\vec{E} = \rho \vec{J}$ olduğunu daha önce belirtmiştik. Ama $\vec{E}$ ve $\vec{J}$ değerlerinin direkt olarak ölçülmesi çoğu zaman zordur.

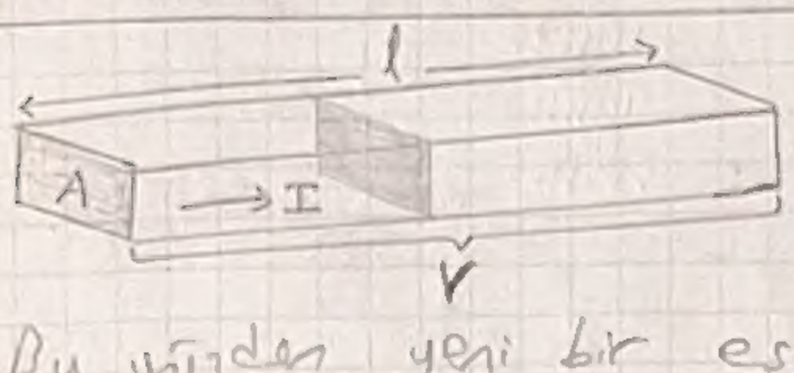

Bu yüzden yeni bir eşitlik türetelim.

$I = JA$ ve $U = \vec{E} l$ 'dir. Buradan

$U = \rho \vec{J} l$

$U = \rho \frac{I}{A} l \Rightarrow \frac{U}{I} = \frac{\rho l}{A}$ olur. Eşitliğin sağ yanı direnç olarak adlandırılır. $R = \frac{U}{I}$. ρ için yazdığımız eşitliği R için yazarsak $R_T = R_0 [1 + \alpha (T - T_0)]$ olur.

S145- Cevaplar

① Ohm Yasasından $R = \frac{U}{I}$ yazabiliriz. Buradan değerleri yerlerine koyarsak

$R = \frac{7,5}{0,12} = 62,5\ \Omega$ olur.

② $I = 2,5\ A$ $R_1 = 75\ \Omega$ $U = ?$ $U = IR = 2,5 \cdot 75 = 187,5\ V$.

③ Ampül omik bir direnç değildir. Bu yüzden ohm yasasıyla tarif edilemez. Sabit I değerlerinden geçen doğruların eğimlerine bakarsak R'nin aralıklarla değerler kümesi olduğunu görürüz.

① $I = 12\ mA = 0,012\ A$
R_1 ve R_2 seri bağlı
$U = ?$
$R_1 + R_2 = 200 + 175 = 375\ \Omega$
$U = 0,012 \cdot 375 = 4,5\ V$

② $U = 6\ V$
$I = 6\ mA = 0,006\ A$
$R = ?$
Kimda (6 mA) grafiğin uçları arasındaki U değeri 6,6 V olur. $R_x = \frac{6,6}{6\ mA} \cdot 10^3 = 1133\ \Omega$ olur.

Seri bağlı devrelerde dirençlerdeki akımın aynı olduğunu biliyoruz. Bu durumda ampulün uçları arasındaki potansiyeli bu olarak okunur.

Ampul – R_1 Seri Bağlı Direçlerinde I – U grafiği

⊙ Ölçümden

△ Resim 1 grafiğinden alınan $V_1 + V_A$ değerlerinden

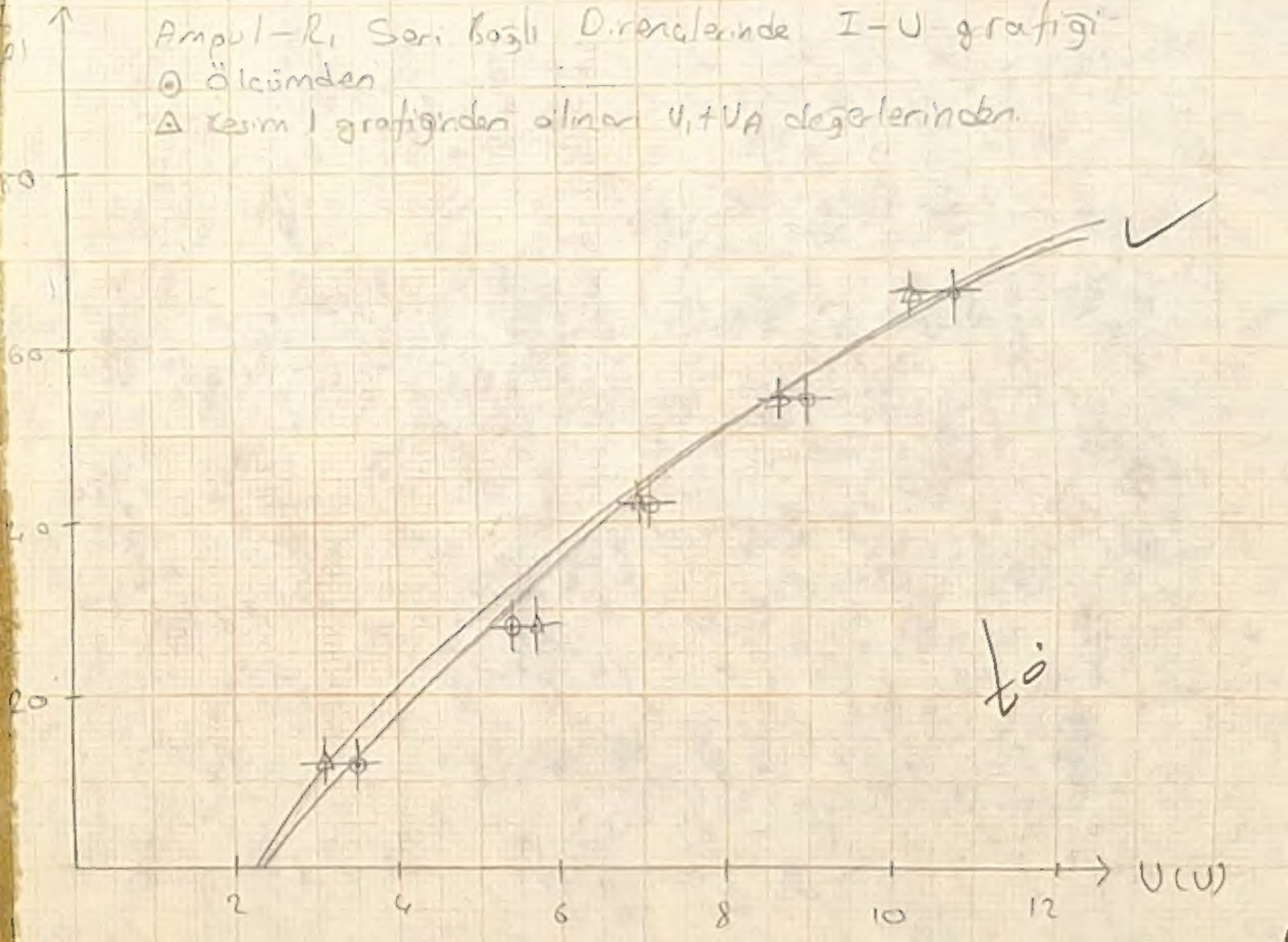

R_1 ve R_2 Dirençleri için I - V grafiği

A → R_1

○ → R_2

□ → Ampul

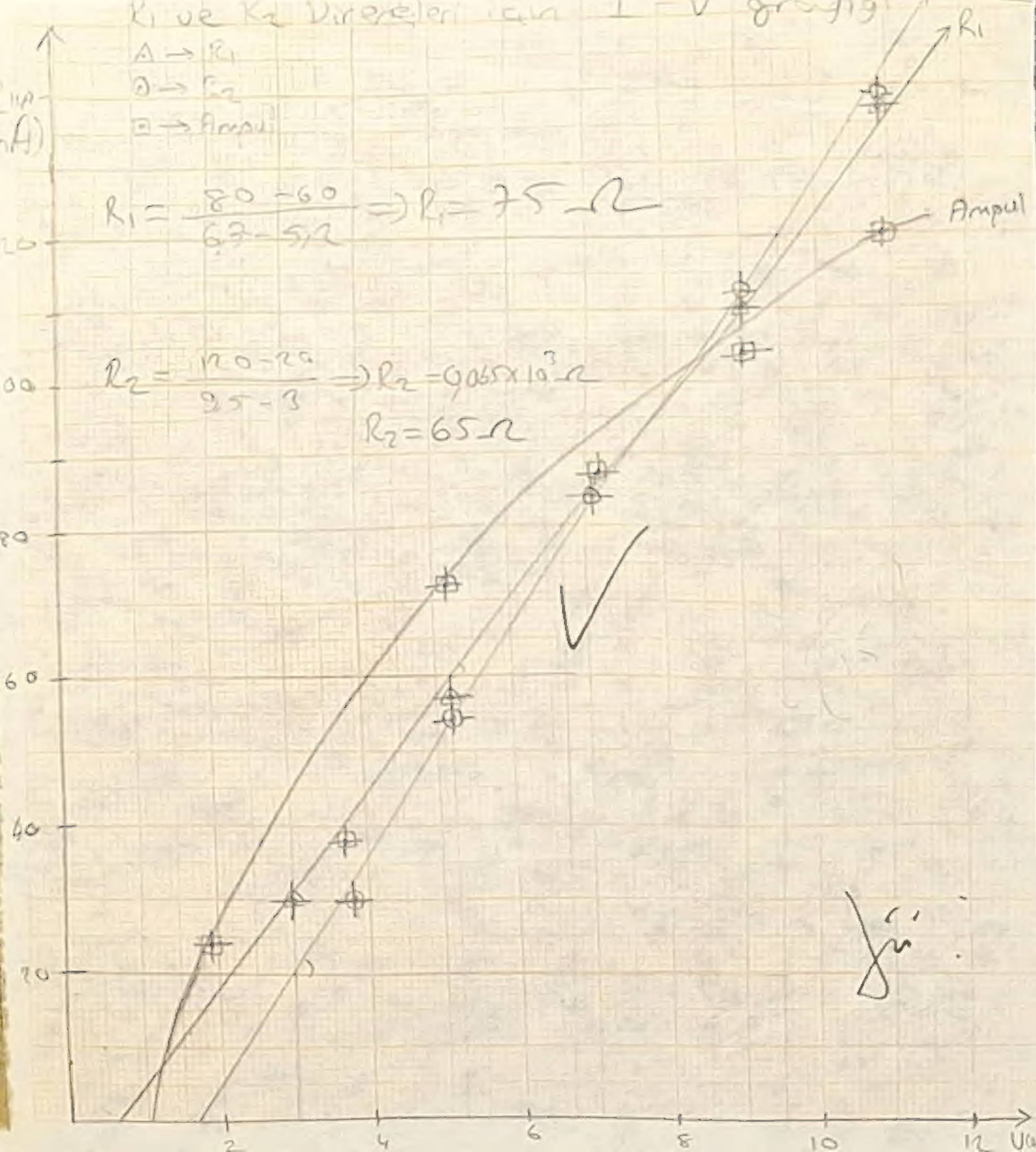

$$R_1 = \frac{80-60}{6,7-5,2} \Rightarrow R_1 = 75\ \Omega$$

$$R_2 = \frac{120-20}{9,5-3} \Rightarrow R_2 = 0,065 \times 10^3\ \Omega$$

$$R_2 = 65\ \Omega$$

Kesim ① a) Gerilimin 0-10,8 V arasındaki 1,8 V'luk artışlardaki değerleri için I akımını ölçtük b) Tüm direnç ve ampüller için bu işlemleri tekrarladık. c) Her eleman için V'ye karşı I akımını grafik kağıdına çizdik.
Kesim ② a) R_1 direncini ampülle seri bağladık, iki uç arasındaki U gerilimlerinin farklı değerleri için I akımını ölçtük ② ölçümle b'deki I-V grafiğiyle Kesim ①'den alınan U_1+U_2 değerleriyle çizilen U-I grafiğini karşılaştırdık

VERİLER:
Kesim ① → Tek Bir Devre Elemanının Gerilim-Akım Karakteristiği

R_1		R_2		Ampul	
U (V)	I (mA)	U (V)	I (mA)	U (V)	I (mA)
3,5	30	3,8	30	1,9	24
5,2	57	5,3	54	3,7	38
7,1	84	7,1	84	5,2	72
9,0	110	9,0	112	7,1	88
10,9	137	10,9	138	9,0	104
				10,9	120

Grafikten elde edilen R değerleri
$R_1 = 75\ \Omega$
$R_2 = 65\ \Omega$

Kesim ② Seri Bağlı iki Devre Elemanının Gerilim-Akım Karakteristiği

R_1 ve Ampul (Seri B)		V_{graf}
U (V)	I (mA)	(V)
3,5	12	3,1
5,4	28	5,7
7,1	42	7,0
9,0	54	8,7
10,8	66	10,3

Bu akım değerleri için ilk grafikten R_1 ve Ampul için alınan V değerlerinin toplamından elde edilen değerler;
$V_1 = 1,3 + 1,8 = 3,1$ V
$V_2 = 2,4 + 3,3 = 5,7$ V
$V_3 = 3,0 + 4,0 = 7,0$ V
$V_4 = 3,8 + 4,9 = 8,7$ V
$V_5 = 4,5 + 5,8 = 10,3$ V
} Görüldüğü gibi grafikten elde edilen V değerleri deneydeki hata oranına göre önüne alındığında ölçüm sonuçlarıyla aynıdır

HATA HESABI:
R_1 direnci için; $\frac{\Delta R_1}{R_1} = \frac{\Delta V}{V} + \frac{\Delta I}{I} \Rightarrow \frac{\Delta R_1}{84} = \frac{0,3}{6,7} + \frac{3}{80}$
$\Delta R_1 = 19\ \Omega$
R_2 direnci için; $\frac{\Delta R_2}{R_2} = \frac{\Delta V}{V} + \frac{\Delta I}{I} \Rightarrow \frac{\Delta R_2}{170} = \frac{0,3}{7} + \frac{3}{200} \Rightarrow \Delta R_2 = 37,$

SONUÇ: Sonuç olarak I-V, ve I_2-V_2 grafikleri doğru çıkarken direnç değerleri $R_1 = 75 \mp 19\ \Omega$ ve
$R_2 = 65 \mp 38\ \Omega$ oldu. Ampulün grafiği ise eğri çıktı. İkinci kesimde yine bir eğri elde ettik

YORUM: Deney sonuçlarından elde ettiğim sonuç R_1 ve R_2 dirençlerinin iyi bir yaklaşıklıkla OHM YASASINA uydukları ampülün ise bu yasaya uymayışıydı. Ampulün sıcaklığı (bunu parlaklığın artışıyla gözlemliyordu) arttıkça direncinin de arttığını gördük. Ayrıca akım R_1 ve R_2 direncinde olduğu gibi V ile doğru orantılı artmıyor, I daki artış V'ye oranla daha az kalıyordu.
Deneydeki hatalar ise gözlem ve deney düzeneğinden kaynaklanıyordu.
Deneydeki bağıl hatamız ise $\%H_{R_1} = \frac{|75-70|}{70} = \%7$
ve $\%H_{R_2} = \frac{|65-75|}{75} = \%13$ oldu.

Yine Kesim 2'de seri bağlı devrenin iki uç arasındaki gerilimin bu devredeki elemanların aynı akımdaki gerilimlerinin toplamına eşit olduğunu gördük.

8.3.1991

DENEYİN ADI: TFD-15 KIRCHHOFF YASALARI
AMAÇLAR : Çeşitli devrelerdeki akım ve gerilimleri, Kirchoff yasalarını kullanarak hesaplanan değerlerle karşılaştırmak

ARAÇLAR: DC güç kaynağı, Voltmetre, Ampermetre, Dirençler, Bağlantı Kablolari.

TERİMLER:
Akım: Birim zamanda belirli bir alandan geçen yük miktarıdır. $I = \frac{\Delta Q}{\Delta t}$ ile verilir
Akım Yoğunluğu: Birim yüzey alandan geçen akımdır $J = \frac{I}{A} = nqv_d$ $v_d = \frac{J}{ne}$ $v_d \cdot ne = J$.
v: parçacıkların çekiş akma hızı
n: yük yasısı
q: Yükün miktarını ifade eder.
EMK: Elektrik devresinde parçacıkları düşük potansiyelden yüksek potansiyele götüren tüvvete emk (electromotive force) denir. Batarya elektrik generatörü, güneş pilleri, fuel cell'ler buna bir örnektir.
Bir devre elemanının gücü o elemanın uçlarındaki potansiyel farkın akımla çarpımına eşittir veya

$P = VI = I^2R = \frac{V^2}{R}$ 'dir.

Reostа, potansiyometre: Değiştirilebilir dirençlerdir.

KURAMSAL BİLGİ: Kirchoff kanunları olarak bilinen yasaların tanımları şu şekildedir.

① Bir dal üzerindeki noktadan geçen akımların toplamı ile bu noktadan çıkan akımların toplamı sıfır (0)'a eşittir ya da; bir devrenin herhangi bir noktasına gelen gelen toplam akım o noktadan çıkan toplam akıma eşittir

② Bir devrede herhangi bir gördeki potansiyel farkların toplamı sıfırdır, veya,
Bir devrenin herhangi iki noktası arasındaki potansiyel fark bu noktaları birleştiren herhangi bir yol için aynıdır.

Şimdi 2 göllü bir devrede bu kuralların bir uygulamasını görelim ve inceleyelim ve bu kurallar yardımıyla bilinmeyen I, R, ε değerlerini bulalım.

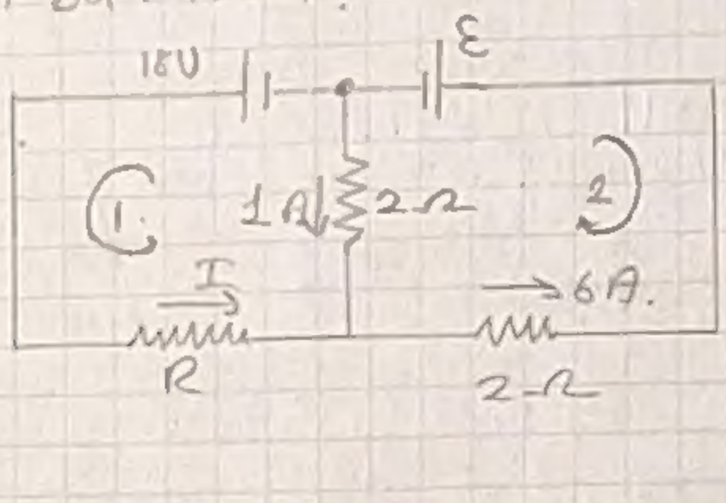

Kirchhoff'un 1. yasasından
$I + 1A - 6A = 0$ yazabiliriz. Bu durumda
$I = 5$ olur.

Kirchhoff'un 2. yasasından
$18V - 5 \cdot R + 1 \cdot 2 = 0$
$R = 4\Omega$ olur.

Yine Kirchoff'un 2. yasasından.
$\varepsilon + 6 \cdot 2 + 1 \cdot 2 = 0$
$\varepsilon = -14V$

Yada $\varepsilon + 6 \cdot 2 + 5 \cdot 4 - 18 = 0$
$\varepsilon = -14V$ olarak bulunur.

Kaynaklar: ① Temel Fizik Deneyleri Laboratuvar Kılavuzu Doç. Dr. Riza Sungur.
② University Physics (Sears, Zemansky, Young)
③ Fundamentals of Physics, (Halliday, Resnick)
④ College Physics (Weber, Manning, White, Weygand)

DENEME SORULARI

3. devre

$R = \frac{\varepsilon}{I} = \frac{5,1}{0,028} = 182\ \Omega$

ÖLÇÜLER

R_1		R_2		R_3	
U_1(V)					

$R_1 = 92\ \Omega$

$R_2 = 139\ \Omega$

$R_3 = 209\ \Omega$

Devre I

10	3
1,0	0,8
1,2	1,3
3,0	3,0

Devre II

	3,2	3,2
	6,3	6,6
	3,5	4,0
	2,0	2,1
	1,0	1,0

Devre III

		5,1
		8,5
	1,1	1,0
	1,3	1,5
		3,2

Devre IV

	5,2	5,1
	2,8	2,7
	1,9	1,7
	0,9	1,1
	2,2	2,2
	3,0	2,6

HESAPLAMALAR.

Devre I: $R_{es} = R_1 + R_2 + R_3 = 92 + 139 + 209 = 440\ \Omega$

$I = \frac{E}{R_{es}} = \frac{5,1}{440} = 0,0039\ A = 3,9 \cdot 10^{-3} = 3,9\ mA$

seri devrelerde tüm R dirençlerinden aynı akım geçtiği için:

I) $V_1 = 0,0039 \cdot 92 = 0,8\ V$

II) $V_2 = 0,0039 \cdot 139 = 1,3$

III) $V_3 = 0,0039 \cdot 209 = 3,0\ V$

Devre II:

Eşdeğer direnci $\frac{1}{R_{es}} = \frac{1}{R_1} + \frac{1}{R_2} + \frac{1}{R_3} = \frac{1}{85} + \frac{1}{110} + \frac{1}{330} \Rightarrow R_{es} = 49\ \Omega$

Paralel devrelerde tüm kolların uçları potansiyel farkı olduğu için:

$I = \frac{E}{R_{es}} = \frac{3,2}{49} = 66$ $\qquad I_1 = \frac{E}{R_1} = \frac{3,2}{80} \cdot 10^3 = 40\ mA$

I-V graph:

- (a) R_1
- (b) R_2
- (c) R_3



$I_2 = \frac{5,2}{R_2} = \frac{5,2}{150} \cdot 10^3 = 21\ mA$ $I_3 = \frac{3,3}{R_3} = \frac{3,3}{330} \cdot 10^3 = 10\ mA$

Devre 3 için;

$\frac{1}{Res} \quad \frac{1}{80} + \frac{1}{330+150} \Rightarrow Res = 69\ \Omega$

$I = \frac{\varepsilon}{Res} = \frac{5,1}{69} \cdot 10^3 = 73\ mA$

$I_1 = \frac{\varepsilon}{R_1} = \frac{5,1}{80} 10^3 = 63\ mA$

$I_2 = I - I_1 = 73 - 63 = 10 mA$ (Kirchoff'un 1. yasasından)

$V_1 \quad I_1 \cdot R_1 = 0,01 \cdot 150 = 1,5\ V$

$V_2 : I_2 \cdot R_3 = 0,01 \cdot 330 = 3,3\ V$

Devre 4 için;

$Res = R_1 + \left(\frac{1}{R_2} + \frac{1}{R_3}\right)^{-1} = \left(80 + \left(\frac{1}{150} + \frac{1}{330}\right)^{-1}\right) = 183\ \Omega$

$I \quad \frac{\varepsilon}{Res} \quad \frac{5,1}{183} \cdot 10^3 = 28\ mA$

$I_2 = \frac{\varepsilon - R_1 I}{Res} = \frac{5,1 - 80 \cdot 0,028}{183} \cdot 10^3 = 17\ mA$

Kirchhoff'un 1. yasasından $I_3 = I \quad I_2 = 28 - 16\ mA = 11\ mA$

$\therefore V_1 = I \cdot R_1 = 0,028 \cdot 80 = 2,2\ V$

$V_2 = I_2 \cdot R_2 = 0,017 \cdot 150 = 2,6\ V$

10.3.1991

[illegible]

Devre 2: I devre alınır ise

$\% = \frac{|63 - 66|}{63} \cdot 100 = \%4$

Devre 1 I devre alınır ise

$\%H = \frac{|61 - 73|}{61} \cdot 100 = \%20$

Devre [illegible] I devre alınır ise

$\%H = \frac{|28 - 28|}{28} = \%0$ HATA

YORUM: [illegible]

Aşkın Ömür Bodur;

Hata kesabı için aşağıdaki bağıntı bir örnek gösterilmiştir. Diğer formüller [illegible]

$$U = IR$$
$$\ln U = \ln(IR)$$
$$\ln U = \ln I + \ln R$$ yazıldıktan sonra [illegible]

ve

$$\frac{\Delta U}{U} = \frac{\Delta I}{I} + \frac{\Delta R}{R}$$ olur. Burada Δ değeri (I veya R için aşağıdaki hata) ile değerin çarpımı ΔI ve ΔR cinsinden hata değerini verir. Bu değerler toplanırsa ΔU değeri bulunur. $U \mp \Delta U$ şeklinde verilir.

DENEYİN ADI: TFD-18 / OSİLOSKOP : TD-22 / DALGA [illegible] ÖLÇÜMLERİ
DENEYİN AMACI: 1- Osiloskobun tanıtılması
2- Osiloskopla ölçme yöntemini öğrenmek
3- Osiloskopla alternatif akımın özelliklerini incelemek
4- [illegible] ve [illegible] ölçülmesini öğrenmek
5- Osiloskop yardımıyla bir RC devresinin frekans karakteristiğini çizmek
6- Yarım dalga ve tam dalga doğrultucu devrelerini öğrenmek

KAVRAMLAR:

DİRENÇ: Sabit bir sıcaklıkta, bir metalik iletkenin uçları arasındaki potansiyel farkının iletkenden geçen akıma oranı sabittir ve direnç olarak tanımlanır. R ile gösterilir. $R = U/I$ ile tanımlıdır. Birimi Volt/amper = ohm (Ω)

KONDANSATÖR: İki iletkenin bir yalıtkanla ayrılması şeklinde kondansatör denir. Kondansatörün iç kısımları deneme ile eşit ve zıt yük taşırlar. Yani kondansatörün toplam yükü sıfırdır. Bir kondansatörde yükün depolandığı kısım dielektrik adını alır.

$$C = \frac{Q}{V_{AB}} = C \cdot V^{-1} = \text{Farad}$$

Q yüküne sahip bir kondansatör, devrede yüksek potansiyele [illegible] iletkenin [illegible] Q yükünü [illegible] alacaktır. [illegible]

[illegible] σ yüzey yoğunluğu ile [illegible] $\vec{E} = \frac{\sigma}{\epsilon_0} = \frac{Q}{\epsilon_0 A}$ ile verilir. Bu durumda [illegible]

$$V_{ab} = Ed = \frac{1}{\epsilon_0} \frac{Qd}{A} \text{ olur.}$$

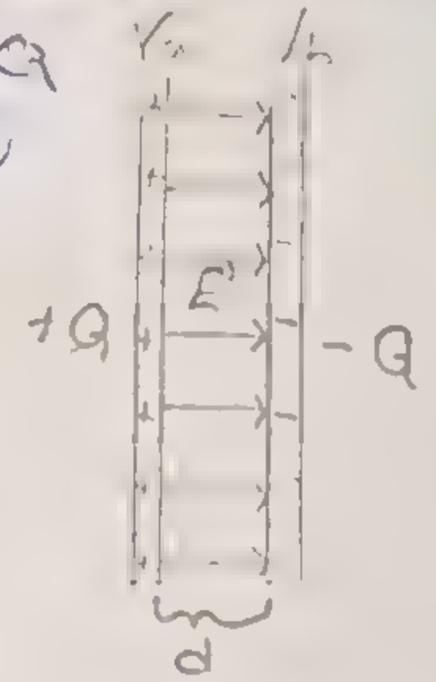

$$\frac{Q}{V_{AB}} = \epsilon_0 \frac{A}{d} \text{ olur.}$$

[illegible] $\frac{1}{C_T} = \frac{1}{C_1} \frac{1}{C_2}$ [illegible]

[illegible] transformatörde [illegible]

Bir transformatörde [illegible]

Ayrıca $I_1 \cdot V_1 = I_2 V_2$ eşitliği de vardır.

PERİYOT: Bir dalganın yapması için geçen zamana dalganın periyodu denir. T ile gösterilir.

FREKANS: Birim zamanda tekrarlanan dalga sayısına frekans denir. (Hz) ile gösterilir. Frekans f ile gösterilir.

$f = \frac{1}{T}$ 'dir

Bir periyodik sinüs $U = U_0 \sin(\omega t + \varphi)$ şeklinde verilir. Bunun etkin değeri U ile gösterilir

$$U_{et} = \frac{1}{T} \int_0^T U^2 dt$$

$$U_{et} = \left(\frac{1}{T} \int_0^T U_0^2 (\sin 2\pi f t)^2 dt\right)^{\frac{1}{2}}$$

$$U_{et}^2 = \frac{U_0^2}{T} \int_0^T \sin^2 2\pi f t \, dt = \frac{U_0^2}{T} \int_0^T \frac{1-\cos 4\pi f t}{2} dt$$

$$U_{et}^2 = \frac{U_0^2}{2T} \int_0^T \cos 4\pi f t \, dt = A \left[\sin 4\pi f T\right]_0^T = A\left(\sin 4\pi \frac{1}{T} T - \sin 4\pi f\right)$$

$$= A$$



Katot ışınları, uçuşan elektronlar

alarla ilgisi elektronlar

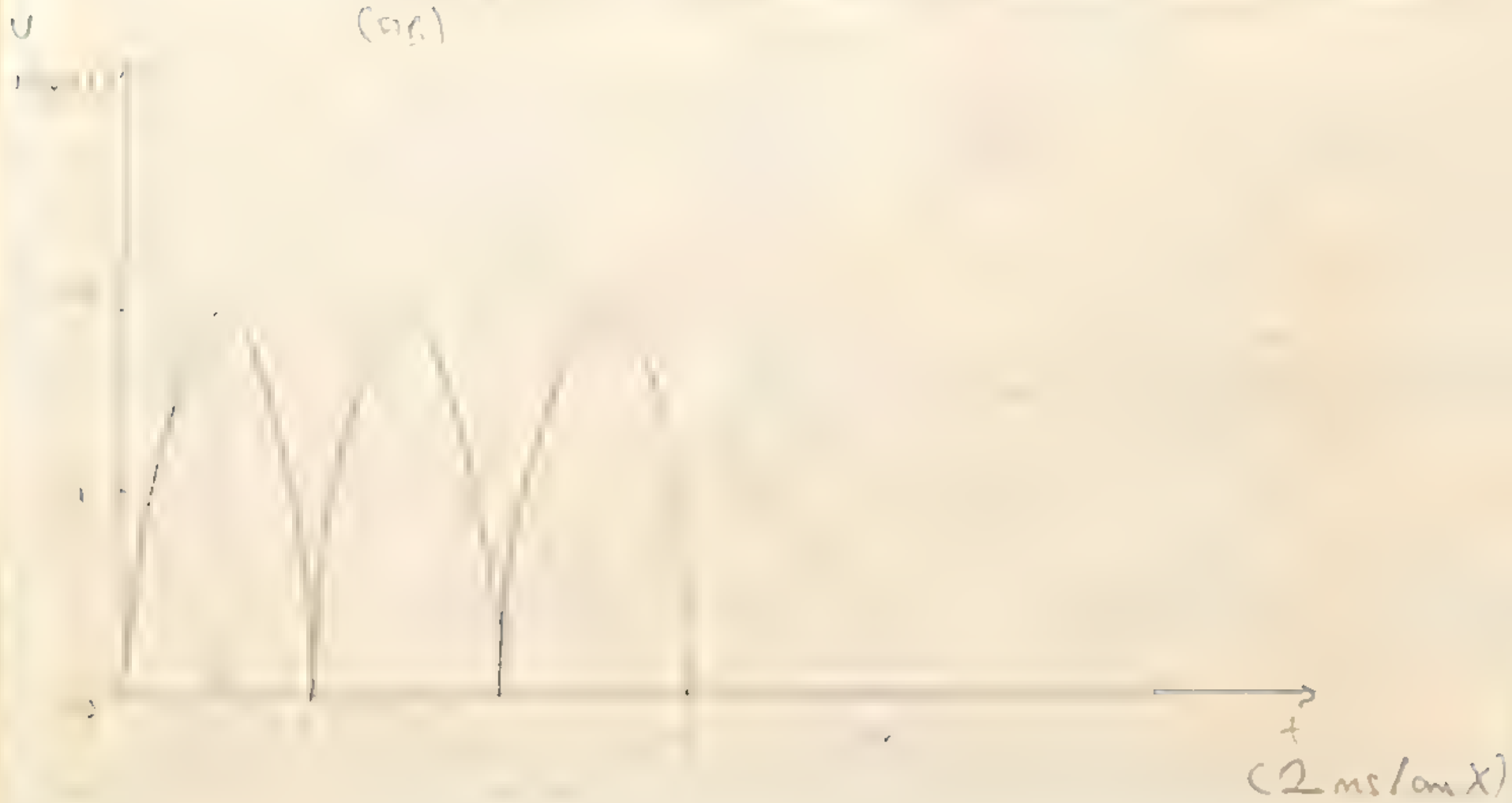
U
t
(2 ms/cm X)


U
1
2
1
2
t
(5ms/cm X)

DENEYİN YAPILIŞI:

Düzenek, 0-50 Hz arasındaki sinyallere duyarlı ve min 50 mV'tan büyük sinyallerden osiloskop, 4,5 V'luk pil, 0-9 V çıkışlı transformatör, röle.

Osiloskopta düşey sapma 1V/cm, yatay yerdeğiştirme 5 ms/cm konumuna getirilir.

① * Düşey büyültme ölçek düğmesi 5 V/cm konumuna getirilir.
* Zaman tarama düğmesi 5 ms/cm konumuna getirilir.
* Yatay ve düşey konum kaydırma düğmeleri ile izi ekran merkezine getir
* Çift/tekli anahtarını DC'ye çevir
* Pilin (-) ucunu toprak girişine, (+) kutbunu sinyal girişine bağla
* Düşey sapmayı ölç
* D.B.D konumunu daha kolay değerler okuyabilmek için değiştir (En küçük V/cm değerini seç - izi ekran üzerinde kalmak koşuyla-)
* Pilin kutuplarını değiştir.

② *4,5 V'luk pili rölenin NC ve NO uçlarına bağla
* Osiloskop rölenin ortak ucu ile NC ucu arasına bağla
* Röle 5 V'un altında
* Sinyalli jeneratörü ve ölç. cihazı
* Sinyalli jeneratörü 5 V civarına ve bize en kolay konumuna dikkat et
* Anahtarı AC'ye çevir, ve sinyalli AC'deki ile karşılaştır.

③ * Transformatörün çıkış uçlarını osiloskop girişine bağla.
* Anahtarı DC konumuna getir.
* TRANSFORMATÖRÜ PRİZE TAK.
* Sinyalli jeneratörü AC'nin gösterdiği değerle ölçü ile karşılaştır

VERİLER

① 4,5 V'luk pille yapılan ölçümler;

a) Sapma ..... cm = ... volt.

b) Sapma ..... cm = ... volt.

II) 4,5 V'luk ve röle ile yapılan ölçümler;

a) Çift/tekli anahtar DC konumunda;

① V_{t-t} =

② T =

b) Ç.A AC konumunda;

① V_{T-T} =

② T =

III) Transformatör ile yapılan ölçümler;

a) Çift/tekli anahtar H. DC konumunda

① V_{t-t} =

② T =

b) Ç.A. AC. konumunda;

① V_{t-t} =

② T =

VERİLERİN GÖRÜLEN BİÇİMİ:

AC sinyaller için osiloskop

⑤ [illegible]

Uort 1 =

Uort 2 =

KESİM 2:

[illegible]

(I) [illegible]

* [illegible]

(II) [illegible]

KESİM 2-D deki devreyi kur.

[illegible]

Frekansı 600, 1200, 12000, 120000 Hz ve 600000 Hz [illegible]

[illegible]

KESİM II - UCRICUR

- Osilaskop ile AC gerilimi ölçümü

a) Transformatörlü bir devrede [illegible]

[illegible]	4,0	2,8	6,5	4,6	10,0	7,1
[illegible]	3,1	2,2	5,7	4,0	8,8	6,2

b) Sinyal Üreteçli Bir Devrede [illegible]

[illegible]	[illegible]	[illegible]	[illegible]	[illegible]
[illegible]	3,8	3,8	3,8	3,8
[illegible]	3,7	3,3	3,8	12,2



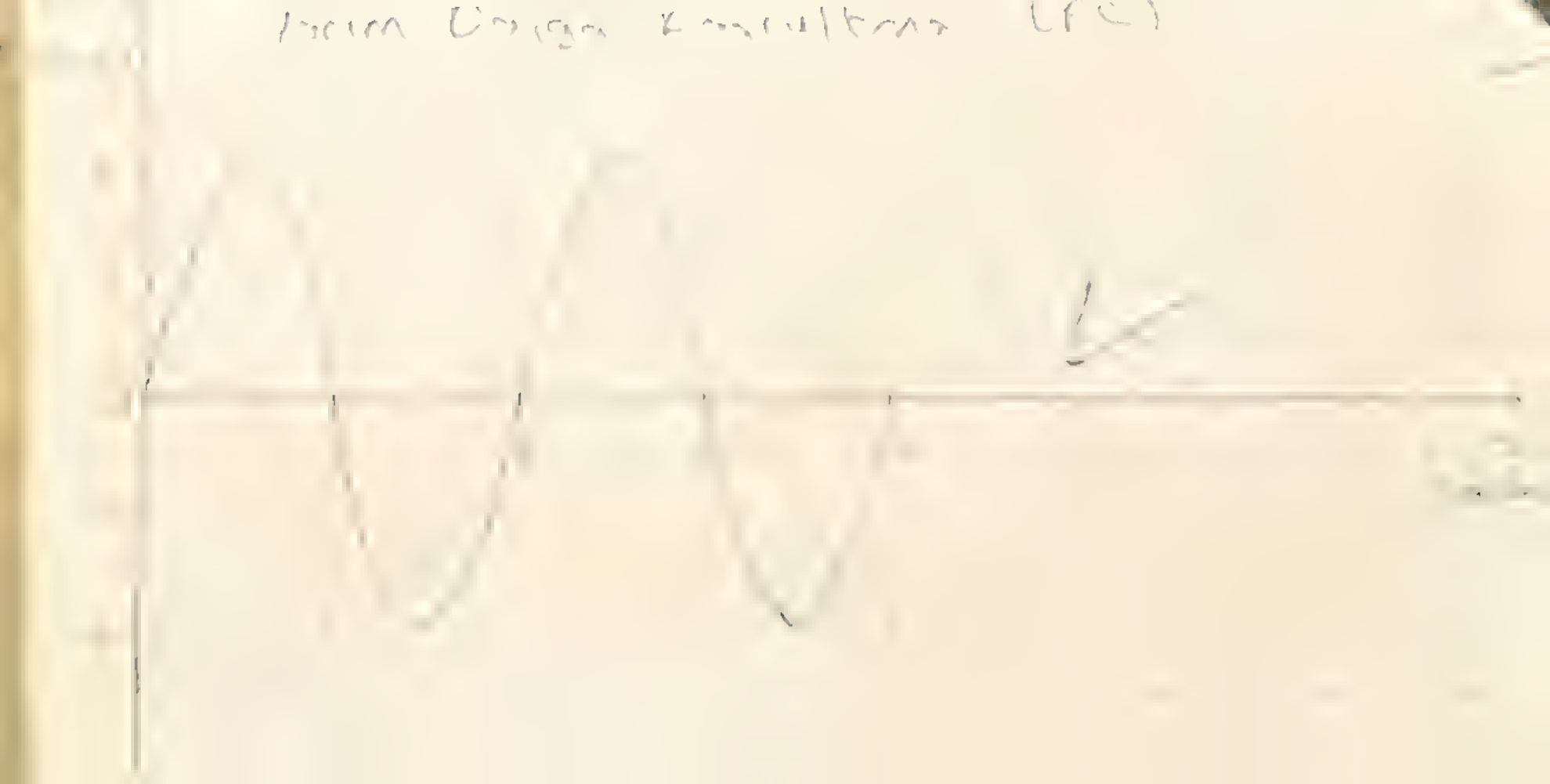

– Osiloskop Yardımı ile bir Sinüsel gerilimin Frekansının Ölçülmesi

	Sinyal Üretecinde Yanlış Frekans				
	60 Hz	15 kHz	12 kHz	100 kHz	600 kHz
Osiloskopta ölçülen tepe değeri	0,01			436·10⁻³	
Osiloskopta ölçülen tepe değeri	11,1			21,7	
Osiloskopta ölçülen tepe değeri	556,0	57,20		108,7	

10kΩ'luk bir direnç üzerinden alternatif akımı osiloskop yardımıyla inceleyerek frekans genlik değerlerini bulduk. Osiloskobu tanıdık ve bu aracı bir ölçü aleti olarak nasıl kullanacağımızı öğrendik. Diyotların AC akımı nasıl doğrultacağını öğrendik. Doğrultulmuş AC akımın Ued değerini hesaplamak için gerekli bilgileri öğrendik.

Deneyin 2. kısmında osiloskop AC gerilim ölçerini karşılaştırdığımızda;

1- Yüksek frekanslarda hata olmadığı sonucuna varıldı.

2- AC gerilim ölçme cihazlarında osiloskopta okunan değerler AC gerilim ölçme cihazlarına göre çok daha hassastır. Çünkü AC gerilim ölçerlerde frekans arttıkça orijinal gerilim değerinden bozuk değerler okuyoruz.

3- AC gerilimin ölçülen AC akımın Ued değerini doğrudan veriştiren osiloskop ile ölçülen değerler yaklaşık olarak aynı çıktı.

Bu deneyden sonra yapacağımız osiloskop deneyinde Ued değerini hesaplamak için ölçülmesi gereken değerleri ve frekans değerlerini daha hassas okuyacağız.

Deney II. kısmında ise ve grimsi doğrultmanın diyotlarını gözlemledik.

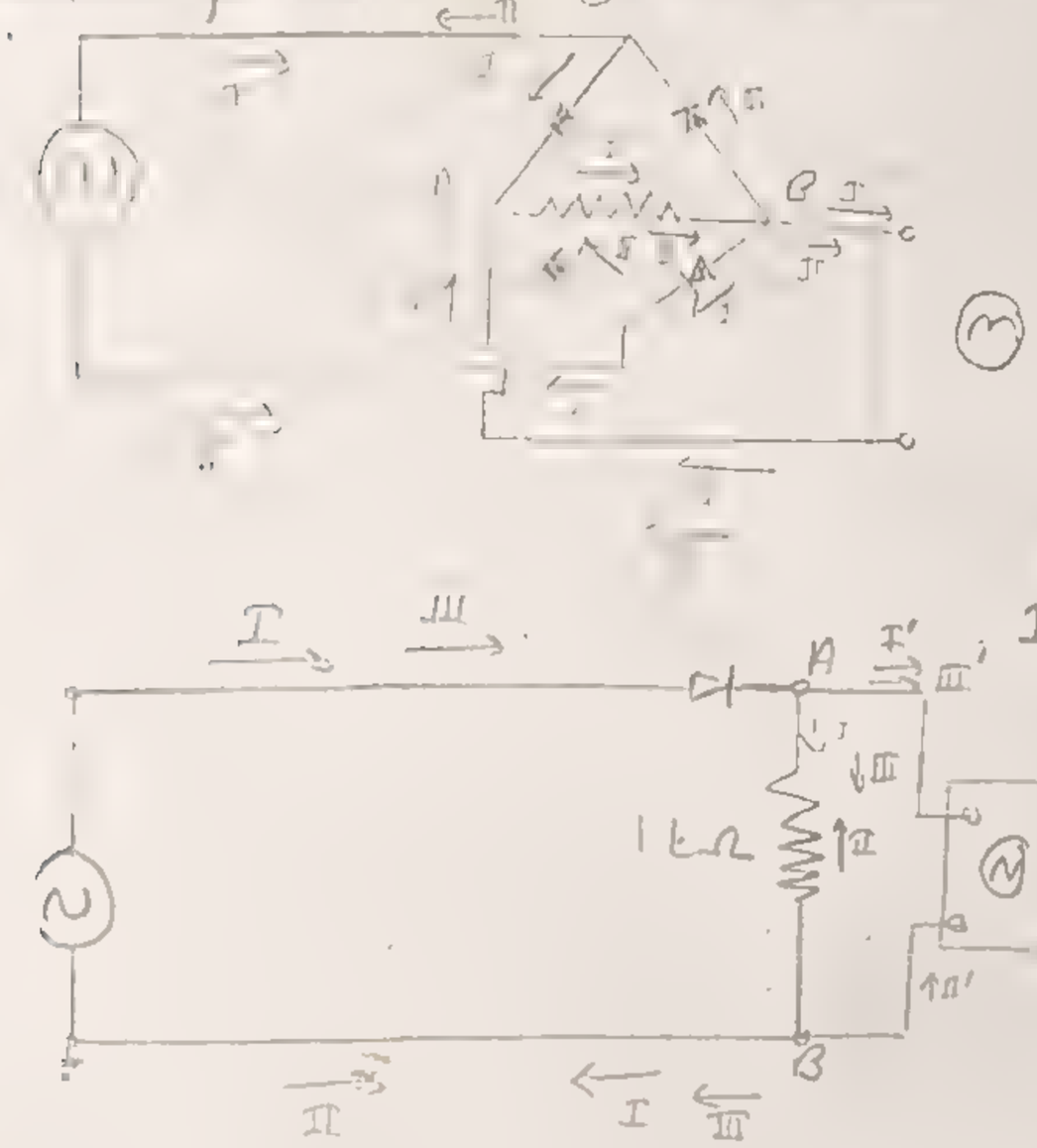

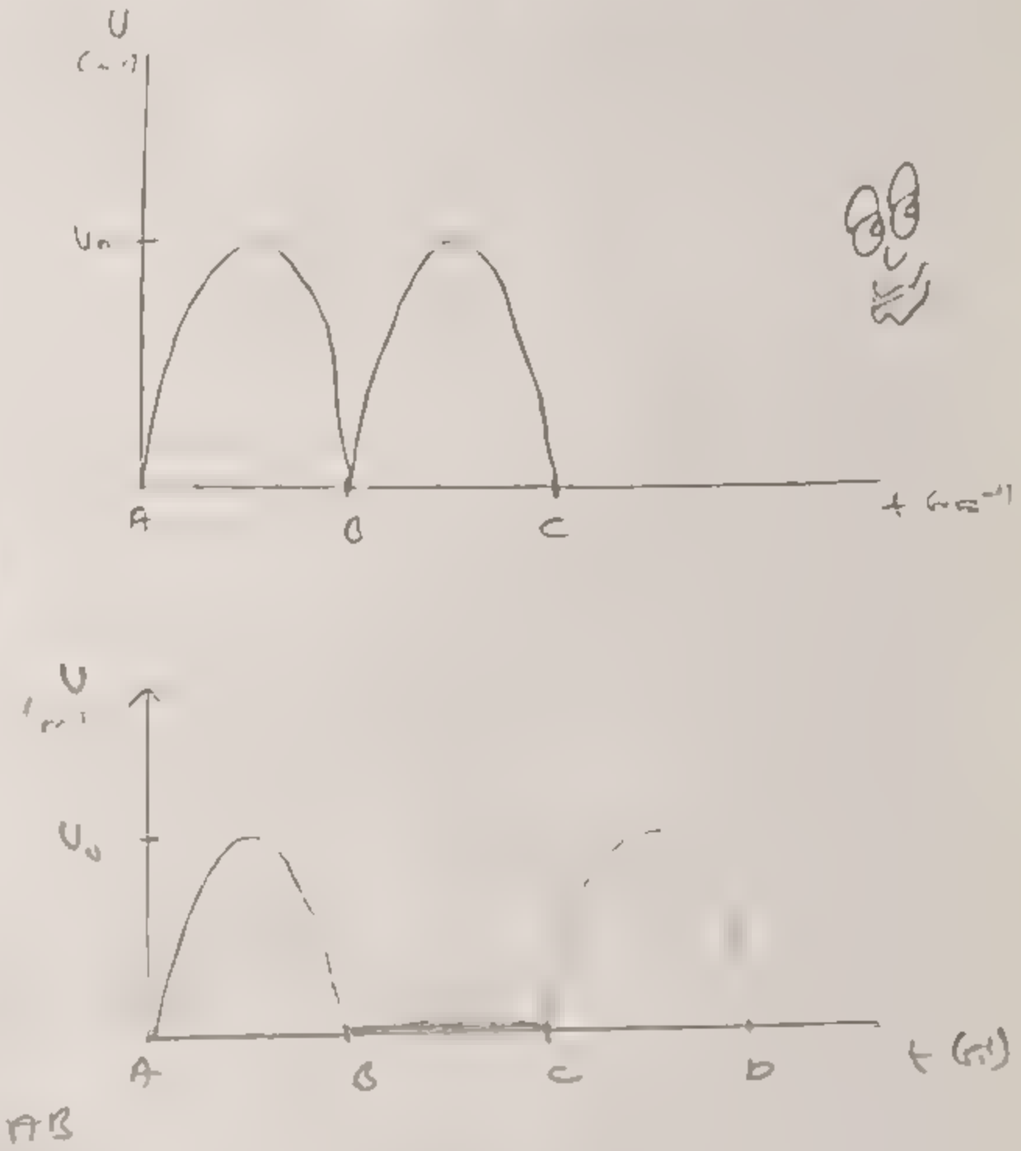

CEVAPLAR

1-

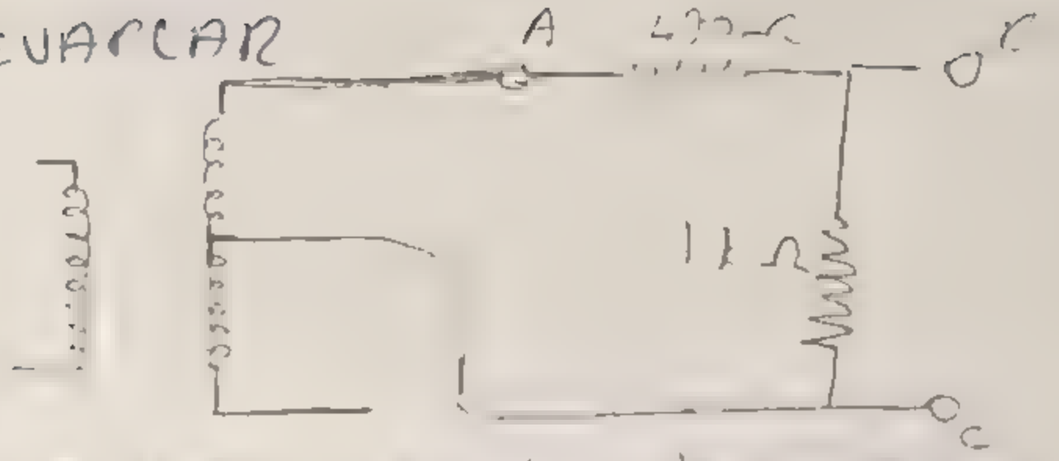



2) [illegible]

③



④ Şekildeki (22-t) [illegible]

$R = 100 + 6 \cdot 10^3 = 6100\ \Omega$

$i_0 = \frac{U}{R} = \frac{6}{6100} \approx 6 \cdot 10^{-3}\ A$

15.3.91

Ja.

KURULUŞ BİLGİ:

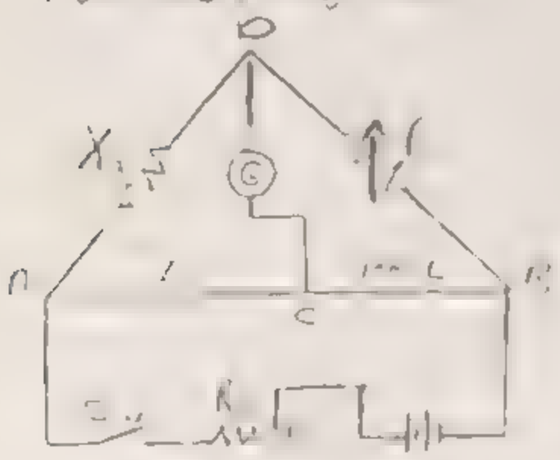

Budurumda $V_{AD} = V_{AC}$ ve $V_{DB} = V_{CB}$ olur. Buna $\frac{1}{}$, devre ...

$$\left.\begin{aligned} I_1 X_a &= I_2 R_{AC} \\ I_1 R &= I_2 R_{CB} \end{aligned}\right\} \quad X = \frac{R_{AC}}{R_{CB}} \cdot R \text{ olur.}$$

Şelül için bu denklem: $X = R \frac{L}{100-L}$ olur

EK BİLGİ:

①

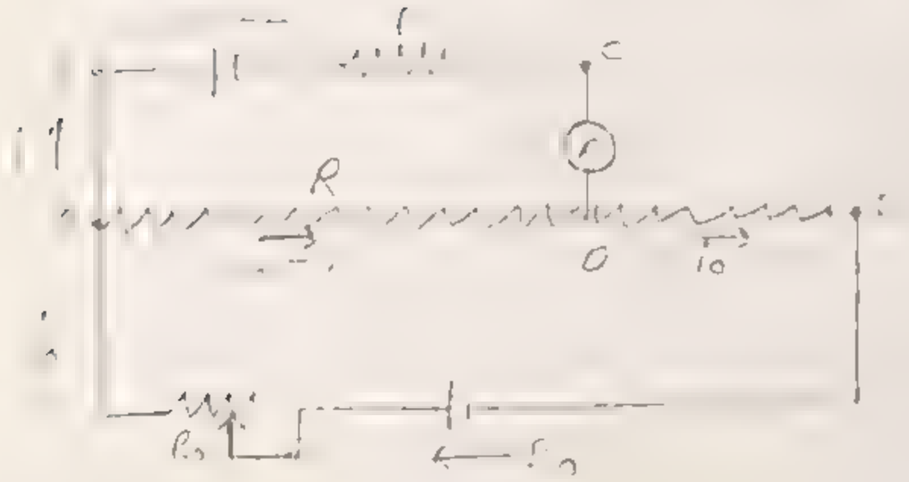

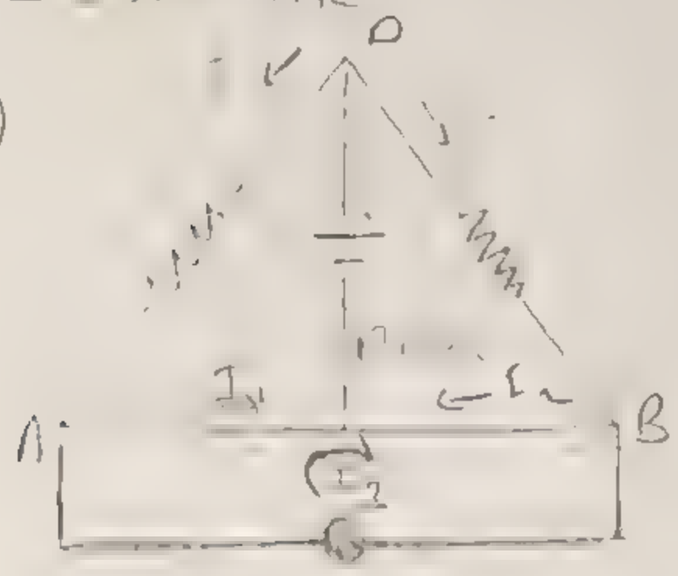

$U_{AB} = 0$ $\boxed{U_A - U_B}$ $I_2 = 0$

$U_{AB} = \lambda I_1 - U_{CC} \cdot R \cdot I_2$

$U_{AC} = R_{AC} \cdot I_1 = F_1 U_{CC}$ ⟹

$U_{CC} = R_{AC} \cdot I_2$

$U_{AB} = U_{CC}$

$\gamma = \beta \frac{L_2}{L_1 + L_2}$

$U_{BC} = 0$ $U_B = U_C$ $I_3 = 0$

$U_{AB} = R I_1 - U_{AC}$ ⟹ $\frac{R I_1}{\lambda I_1} = \frac{R_{AC} \cdot I_2}{I_2 \cdot R_{CC}}$

$U_{AC} = R_{AC} I_2$

$R_{AC} = 100 \Omega$

R_1 (Ω)	L_1 (cm)	$\frac{100-L}{L}$ (cm)	X_1 (Ω)
10	69,0	0,4	24 Ω
20	55,5	0,8	
30	45,0	1,2	
40	37,5	1,7	
50	33,5	2,0	
60	29,0	2,7	
70	25,0	3,0	
80	21,1	3,3	
90	21,0	3,8	

[illegible]	[illegible]	[illegible]	X_2 (Ω)
10	54,0	[illegible]	34 Ω
[illegible]	63,5	[illegible]	
[illegible]	[illegible]	[illegible]	
[illegible]	[illegible]	[illegible]	
[illegible]	[illegible]	[illegible]	
[illegible]	[illegible]	[illegible]	
[illegible]	[illegible]	[illegible]	
[illegible]	[illegible]	[illegible]	
[illegible]	[illegible]	[illegible]	

[illegible]	[illegible]	[illegible]	X_3 (Ω)
[illegible]	[illegible]	[illegible]	46 Ω
[illegible]	[illegible]	[illegible]	
[illegible]	[illegible]	[illegible]	
[illegible]	[illegible]	[illegible]	
[illegible]	[illegible]	[illegible]	
[illegible]	[illegible]	[illegible]	
[illegible]	[illegible]	[illegible]	
[illegible]	[illegible]	[illegible]	
[illegible]	[illegible]	[illegible]	

10	64,5	0,2
20	74,0	0,4
30	66,0	0,5
40	53,0	0,7
45	51,0	0,9
60	46,0	1,2
75	46,0	1,3
90	51,5	1,4
120	70,0	1,6

10	73,6	0,1
20	51,0	0,2
30	37,0	0,4
45	67,0	0,5
60	61,5	0,6
75	61,0	0,8
90	55,0	0,9
120	42,0	1,0
150	46,0	1,1

10	84,0	0,1
20	74,0	0,3
30	66,0	0,5
40	53,0	0,7
45	51,0	0,8
60	46,0	1,0
75	46,0	1,2
90	51,5	1,4
120	70,0	1,6

5 Nokta

8 Nokta

5 Nokta

Bu değer, sıvının sıcaklığı sabit

$X_{ort} = X_1 + X_2 = 24 + 34 = 58$ cc olur. Bulunan sıvı miktarı ile değişen sıcaklık değerleri

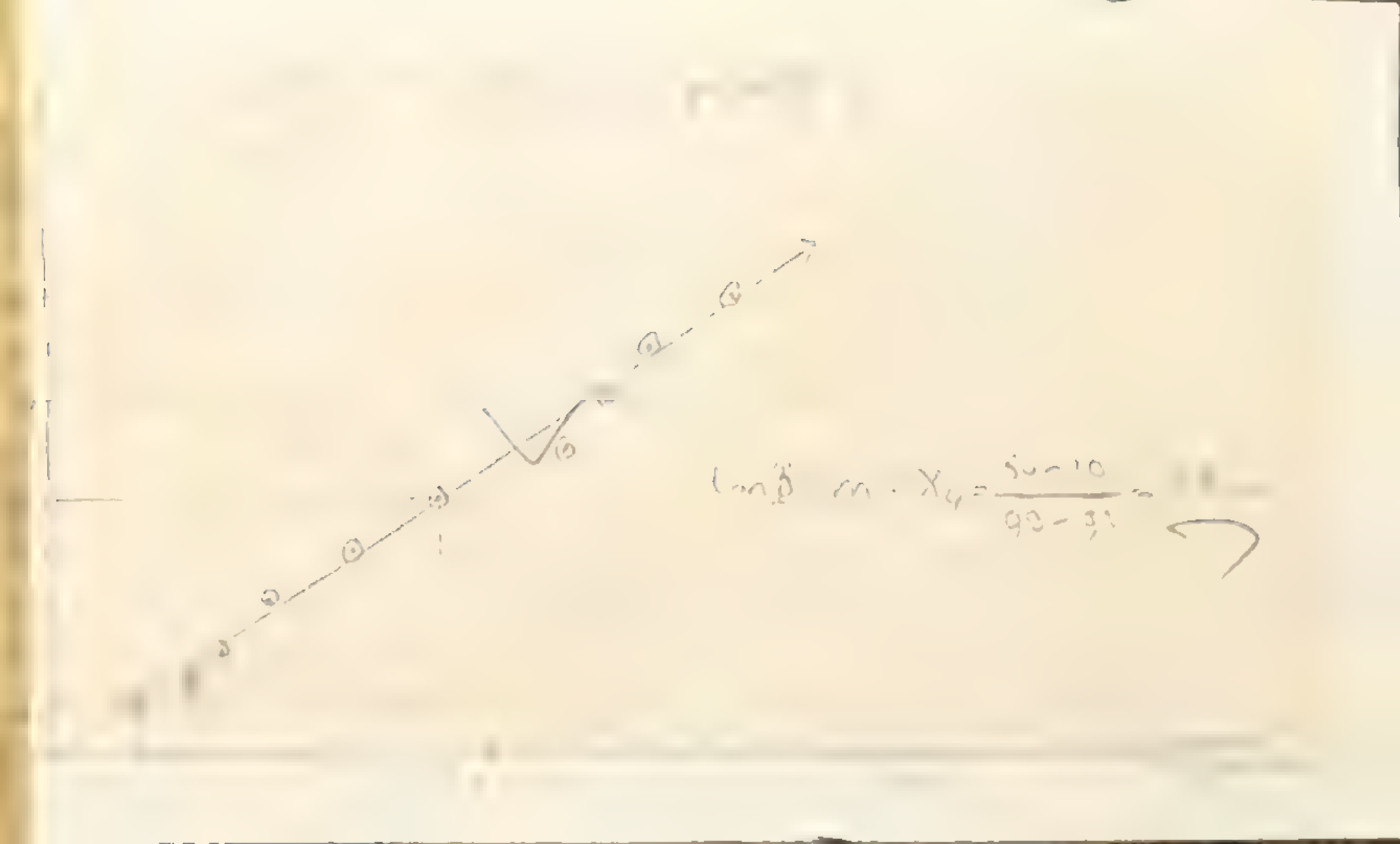



$\frac{1}{R_1}+\frac{1}{R_2}$ (Ω)	ℓ (cm)		$X_{paralel}$ (Ω)
10	57,0	0,4	
10	49,5	1,5	
30	33,0	1,0	
60	24,0	2,8	
[illegible]	[illegible]	3,0	
[illegible]	17,5	4,5	
[illegible]	[illegible]	[illegible]	
[illegible]	14,0	[illegible]	
[illegible]	[illegible]	[illegible]	

$\frac{1}{R_1}+\frac{1}{R_2}$ (Ω)	120	158	124	240	[illegible]
ℓ (cm)	24	34	44	57	80

13-2

Bu değeri hesap yoluy. bulmaya [illegible]

$$\frac{1}{X_{es}}=\frac{1}{X_1}+\frac{1}{X_2}=\frac{1}{24}+\frac{1}{34}$$

$X_{es}=14\,\Omega$ olur. Bu değer [illegible] değerine çok yakın çıkar.

$R=\rho\frac{\ell}{A}$ olduğunu biliyorun. R'ye karşı ℓ grafiğinin eğimi de doğrunun eğimi bize ρ/A'yı verir

[illegible] elde bulunan değerin hatırası;
$\rho=1,2\cdot10^{-6}\,\Omega m$ [illegible]

Soruların [illegible] bulunuşu bilgi ve el [illegible] gapildi.

Nankül
26.3.1991

Daha özenli rapor hazırlamalısın.

DENEYİN ADI: TFD-28 TRANSDUCERS

[illegible] ölçülmesi, [illegible] ve kullanıldıkları [illegible] ile genlik değişimlerinin ölçülmesi ve bu ölçümlerden faydalanarak [illegible] bulmak, tanımak ve dedektör [illegible] ölçülmesi [illegible] kodları.

TEORİ:

① Periyot: Bir tam devir yapmak için geçen zamandır. Saniye olarak ölçülür. T ile gösterilir.

② Frekans: Birim zamandaki periyot sayısına eşittir. Saniyedeki devir sayısı alınırsa birimi hertz (Hz)'dir. f ile gösterilir. $f = \frac{1}{T}$ ile verilir.

③ Açısal frekans: Birim zamandaki periyot sayısının 2π katıdır. Yani

$f \frac{1}{T}$ ise açısal hızı ω ise $f \frac{1}{T} = \frac{\omega}{2\pi}$ yazılabilir. Buradan

$\omega = 2\pi f = \frac{2\pi}{T}$ ile verilir. ω açısal frekanstır. Frekans [illegible] birimi radyan/s'dir. Diğer tanımlar ve [illegible] ise bu fonksiyonda [illegible] ilişkin tanımlardır. İşte bu tanımlardan [illegible] bazı önemli tanımlar.

④ Dalgaboyu: Yani iki [illegible] uzunluktur λ ile gösterilir.

$\lambda = VT = V\frac{1}{f}$ ile verilir.

⑤ Dalga sayısı: [illegible] $k = \frac{2\pi}{T}$'dir.

[illegible] dalga hızı V, [illegible] ve μ birim boy yoğunluk olarak [illegible] üzere $U = \sqrt{\frac{F}{\mu}}$ m/s-kg/m olarak [illegible].

[illegible] hızı V, yoğunluğu ρ [illegible] ve ρ_0 yoğunluk denge [illegible] üzere;

$U = \sqrt{\frac{T \cdot P_0}{\rho_0}}$ ile verilir.

[illegible] ultrasonik dalga üreten ve [illegible] cevirici veya [illegible] transducer denir. [illegible] ultrasonik dalgaları üretmek için kullanılan araçlara [illegible] ve [illegible] ise [illegible]. Seçim [illegible] ile [illegible] değişir.

Standart bir ultrasonik dönüştürgeci:

Dış [illegible] ile birlikte iç ve dış yüzeydeki [illegible] bir [illegible] uygun [illegible] bir [illegible] sıcaklık kontrolü [illegible] sıcaklığı [illegible] kontrol [illegible] gibi [illegible] ve sabit gerilim [illegible] bir [illegible] silindirik boşluğa sahip silindir [illegible], ters [illegible] gerilim uygulanır [illegible]. Filtre [illegible] uygulandığında ise [illegible] ses üreteci olarak kullanılabilir.



Bu deneyde bir diğer ... incelemeyeceğiz.

... elektrot oluşturulur. Bu elektrot ... ile uyarılırsak dişler ...

... ve sesin ... hızı ...

+ halkanın kalınlığı ve ... yarıçaptır.

KESİM I - Genlik Değişmesi:

... alarak osiloskoptan okundu.

Dönüştürücüler arası uzaklık (x) (mm)	Genlik A (mV/cm)	Dönüştürücüler arası uzaklık x (mm)	Genlik A (mV/cm)	Dönüştürücüler arası uzaklık x (mm)	Genlik A
0	4,0	31	0,7	62	0,5
1	1,7	32	0,9	63	0,6
2	1,6	33	0,7	64	0,6
3	1,6	34	0,4	65	0,5
4	1,9	35	0,5	66	0,6
5	1,2	36	0,6	67	0,6
6	1,0	37	0,8	68	0,5
7	1,1	38	0,7	69	0,7
8	1,7	39	0,5	70	0,6
9	1,6	40	0,4	71	0,5
10	1,1	41	0,6	72	0,4
11	0,8	42	0,7	73	0,4
12	1,1	43	0,6	74	0,4
13	1,6	44	0,9	75	0,4
14	1,2	45	0,5	76	0,4
15	0,8	46	0,6	77	0,4
16	0,9	47	0,5	78	0,4
17	1,0	48	0,6	79	0,4
18	1,5	49	0,9	80	0,4
19	1,1	50	1,0		
20	0,6	51	0,6		
21	0,7	52	0,5		
22	1,0	53	0,4		
23	1,1	54	0,6		
24	0,6	55	0,7		
25	0,5	56	0,6		
26	0,6	57	0,5		
27	0,9	58	0,7		
28	0,8	59	0,6		
29	0,5	60	0,5		
30	0,4	61	0,6		

KESİM 2 : FİZİK DENEYİMESİ

ω_2	ω_1	Çevirim Sayısı (Tahlil)	ϕ	Dalga boyu (mm) (λ)
1			π	4
1			$\frac{\pi}{2}$	5
1			0	9
1				10
1			π	11
1			$\frac{\pi}{2}$	12
1			0	13
1				14
1			π	15
1			$\frac{\pi}{2}$	16
1			0	17
1				18
1			π	19
1			$\frac{\pi}{2}$	20
1			0	21
1				22
1			π	23
1			$\frac{\pi}{2}$	24
1			0	25
1				26
1			π	27
1			$\frac{\pi}{2}$	28
1			0	29
1				30
1			π	31
1			$\frac{\pi}{2}$	32

Bu değerleri kullanarak dalga boylarını bulalım.

$\lambda_1 = 9\,mm$

$\lambda_2 = 10\,mm$

$\lambda_3 = 9\,mm$

$\lambda_{ort} = \frac{9+10+9}{3} = 9,3\,mm.$

$V = \lambda f$ denklemini kullanarak

$V = 9,3 \cdot 10^{-3} \cdot 37600 = 349,7\,m/s.$

Sonuç olarak bulduğumuz 349,7 m/s değeri deneyden bulduğumuz değere yakın olduğu için ve kullandığımız cihazın gücü düşünüldüğünde gerçek değere eşit diyebiliriz

KISIM I - DENEYİN YAPILIŞI

Grafikten $\frac{\lambda}{2}$ değerlerini bulup buradan λ yı çekiniz.

$\frac{\lambda_1}{2} = 4 \cdot 2 = 8$ mm

$\frac{\lambda_2}{2} = 4 \cdot 2 = 8$ mm

$\frac{\lambda_3}{2} = 5 \cdot 2 = 10$ mm

$\frac{\lambda_4}{2} = 5 \cdot 2 = 10$ mm

$\frac{\lambda_5}{2} = 5 \cdot 2 = 10$ mm

$\frac{\lambda_6}{2} = 5 \cdot 2 = 10$ mm

$\frac{\lambda_7}{2} = 5 \cdot 2 = 10$ mm

$\frac{\lambda_8}{2} = 5 \cdot 2 = 10$ mm

$\frac{\lambda_9}{2} = 5 \cdot 2 = 10$ mm

$\frac{\lambda_{10}}{2} = 4 \cdot 2 = 8$ mm

$\frac{\lambda_{11}}{2} = 4 \cdot 2 = 8$ mm

$\frac{\lambda_{12}}{2} = 4 \cdot 2 = 8$ mm

$\frac{\lambda_{13}}{2} = 2 \cdot 2 = 4$ mm

$\frac{\lambda_{14}}{2} = 5 \cdot 2 = 10$ mm

$\frac{\lambda_{15}}{2} = 4 \cdot 2 = 10$ mm

$\frac{\lambda_{16}}{2} = 5 \cdot 2 = 10$ mm

$\frac{\lambda_{17}}{2} = 5 \cdot 2 = 10$ mm

$\frac{\lambda_{18}}{2} = 5 \cdot 2 = 10$ mm

Buradan λ_{ort} değerini bulursak;

$\lambda_{ort} = \frac{\sum \lambda}{16} = \frac{1630}{16} = 90$ mm $= 9,0 \cdot 10^{-3}$ m. ✓

Buradan hız ifadesine geçersek; $v = \lambda_{ort} \cdot f$

$v = 9,0 \cdot 10^{-3} \cdot 37605 = 338,4$ m/s

olur. Bu sonuçta sesin 20°c'deki kuru havadaki hızının kabul edilen değerleri içinde esiltir. Bununla birlikte bu sonucun sesin 2'yle uyuşmamasının nedeni osiloskopta dalgaları yeterince büyültememizden ve ölçü hatalarından kaynaklanmaktadır.

Grafikte görülen değerlerin sesin havadaki değerinden azalmasının da kaynağı

CEVAPLAR

① Dış cidar arasındaki 2. maddeyi açıklarım. LC kılıfına max. akü ve voltaj değeri alıştırdığından bir elektrikçi alır ve parazit alıştırıcı karakteristiğinden bu fırsatın kullanıldığını söyler ve bir hile sanır.

② Evet kullanılabilir. $V = \left(\frac{\gamma RT}{M}\right)^{1/2}$ formülünden bulunan V hızı yüzünden Göz Tıldırığı gibi V sesi hızı sıcaklığa bağlı olarak değişmektedir.

③ Böyle bir sistemde dalga boyu sabittir.

$V = \left(\frac{\gamma RT}{M}\right)^{1/2}$ frekansı kırınım boyunu değiştirerek ayarlayabiliriz. Ya da ses hızını değiştirerek ayarlayabiliriz.

$f = \frac{1}{\lambda} \left(\frac{\gamma RT}{m}\right)^{1/2}$.

④ Önemli değildir, ısı etkisiyle gazın genleşmesi metalin genleşmesinden çok daha fazladır.

⑤ $V = \left(\frac{\gamma RT}{m}\right)^{\frac{1}{2}}$ eşitliğine göre sıcaklık değiştikçe hızda onun karekökü oranında değişir. Ses dalgaların oluşumu sırasında gazda sıkışma ve genişlemeler yüksek basınç ve büyük hacim değerleri için adyabatik değişim şartı sebebiyle gazın 'ideal halden uzaklaşmasıyla' ve molekülleşin enerjilerine ardarak kuvvetli bağlılıklarını gaz kanunları gibi etkiler gösterebilir.

⑥ $V = \left(\frac{\gamma r^2 T}{m}\right)^{\frac{1}{2}}$ formülü gereğince ses hızı en küçük olduğu gaz H$_2$'dir.

Aynı sıcaklıkta ise N_2 ve O_2'yi alabilirim.

$\frac{44.9}{(0,1)}$

① Direnç, indüktans ve kondansatör bulunan basit alternatif akım devrelerinin incelenmesi,
② Seri bağlı direnç, indüktans ve kondansatör devrelerinde rezonans şartlarının incelenmesi,
③ Alternatif akım devrelerinde güç ölçmek.

MALZEMELER: AC ampermetre, AC voltmetre, reosta, kondansatör, indüktans, bobinaj transformatörü, bağlantı kabloları

A TERİMLER:

① AC Akım: Zamanla hem büyüklüğü hem de yönü değişen akım üreten kaynaklar mevcuttur. Bu tip kaynakların aynı zaman aralıklarında kendisini tekrarlayan değişken sinyal üreteçlerine alternatif akım üreteci denir. Bu üretecin ürettiği akım AC akım adını alır. $I = I_o \sin 2\pi f t$ ile gösterilir.

Bir akımın belli bir yerde büyüklüğü değişmeyen akıma verilen ad. dır $I = \frac{dq}{dt}$ ile verilir

② Alternatif akım devreleri: AC akım devrelerinde direnç, indüktans ve kondansatörler tek başına pratikte bulunmazlar. Bunlardan en az ikisi kesinlikle bulunur ve seri veya paralel bağlanabilirler. Bu durumda kullanılan yerine kapasitif reaktans denir ve X_c ile gösterilir. Birimi ohm'dur.

Kapasitif reaktans $X_c = \frac{1}{2\pi f C}$ dir. C'nin birimi Faraddır.

Bir kapasitörde alternatif akıma empedansı kapasitif reaktans adını alır ve $X_c = \frac{1}{2\pi f C}$ ile verilir.

Bir devrede R, X_L ve X_c yer değiştirmeden seri bağlanırsa, devrenin toplam direncine Z denir. Bu dirençler üçgen kuralına göre toplanır.

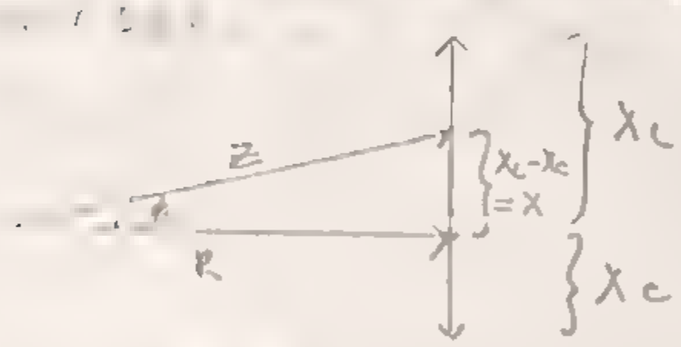

olur.

Burada;

$Z = \sqrt{R^2 + X^2}$

$Z = \sqrt{R^2 + (X_L - X_c)^2} = \sqrt{R^2 + (2\pi f L - \frac{1}{2\pi f C})^2}$

Devrede gerilim ile akım arasındaki açı ϕ denir. ϕ R eksen. $X_L - X_c$ ve gerilim oluşturan üçgen olur. R etkisinin olmadığı durumda gerilimden bakımından gerilimden önceder.

$X_L = X_c$ ise-ki bu duruma seri rezonans durumu denir- bu durumda devrenin empedansı saf dirençtir

② Bir devre yalnızca dirençten oluşuyorsa;

$R = \frac{V_o}{I_o}$ ile verilir. faz farkı sıfırdır.

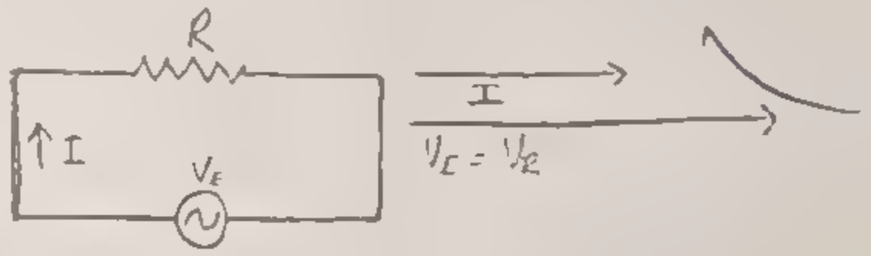

Devre yalnızca indüktanstan oluşuyorsa; ve bu indüktansın direnci ihmal edilebilirse,

$I = I_o \sin 2\pi f t$, türevini alırsak

$I = -\frac{V}{2\pi f L} \cos 2\pi f t = \frac{V_o}{2\pi f L} \sin(2\pi f t - \frac{\pi}{2})$

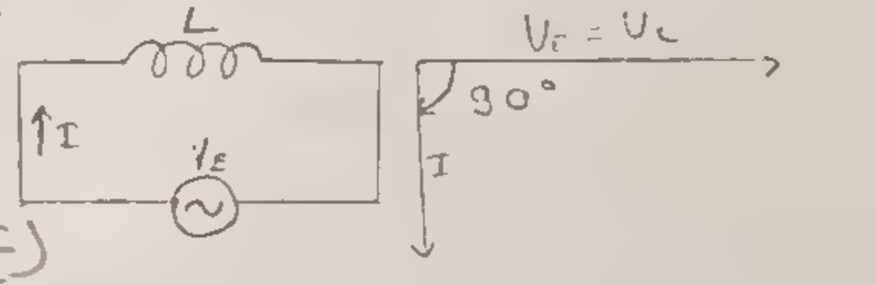

olur.

Bir devrede sadece kondansatör varsa;

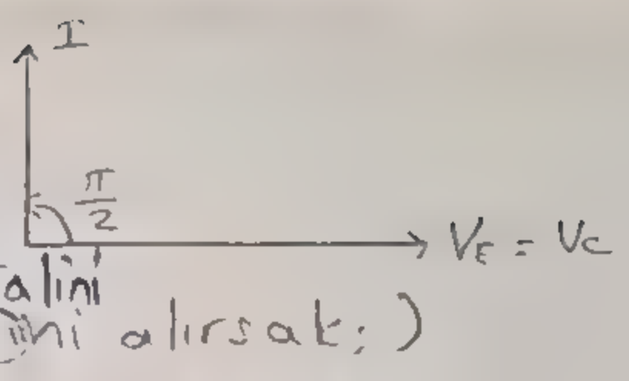

$V = \frac{q}{C} = V_0 \sin \omega t$ ($I = dq/dt$ olduğu- integralini

nu aklımızda tutarak bu eşitliğin türevini alırsak;)

$I = 2\pi f C V_0 \cos \omega t = 2\pi f C U_0 \sin(2\pi f t + \frac{\pi}{2})$ olur

$I_0 = 2\pi f C V_0$ yada $V_0 = \frac{1}{2\pi f C} I_0$ olur.

③ Bir RCL devresinde ise

$R I + L \frac{dI}{dt} + \frac{1}{C} q = V_0 \sin \omega t$ 'dir

Burada $V_R = RI$

$V_L = L \frac{dI}{dt}$

$V_c = \frac{q}{C}$ olur. $V_t = V_R + V_L + V_c$ olur.

$I = I_0 \sin(\omega t - \phi)$ olur.

$I_0 = \sqrt{R^2 I_0^2 + \left(\omega L - \frac{1}{\omega C}\right)^2 I_0^2}$

$V_0 = I_0 \sqrt{R^2 + \left(\omega L - \frac{1}{\omega C}\right)^2}$ buradan, $\tan\phi = \frac{V_L - V_c}{V_R} = \frac{\omega L - \frac{1}{\omega C}}{R}$ olur.

(rezonans durumu)

④ $X_L = X_c$ olduğunda AC akımdaki bir DC akımdaki gibi davranır.
$P = UI$

Eğer X_L'in X_c'ye eşit olmadığı durumda gerçek güç görünen güç UI den daha az olur. Gerçek gücün görünen güce oranı güç faktörü adını alır

$P_{gör} = UI = \frac{U^2}{R}$ $P_{ger} = \frac{U^2}{Z}$ $GF = \frac{R}{Z}$ olur

$\frac{R}{Z} = \cos\phi$ olduğundan $GF = \cos\phi$ ve bir RC devresindeki gerçek güç $P = UI\cos\phi$

EK BİLGİ

$U_{et} = \frac{V_0}{\sqrt{2}}$ $I_{et} = \frac{I_0}{\sqrt{2}}$

$U_{ort} = 0,630 \cdot U_{max}$ $I_{ort} = 0,637\ I_{max}$

R'de harcanan güç; $P = UI = \frac{U^2}{R}$

C'de " " " ; $P = U^2 2\pi f C$

L'de " " " $P = \frac{U^2}{2\pi f L}$

L'de $\frac{1}{2}$ 'dir

$(\longrightarrow 25\ \Omega)$

$$Z = \sqrt{R^2 + X_C^2}$$

$$Z = \sqrt{(30)^2 + (25)^2} = 39.06\ \Omega$$

(Ausgabe)


0.12
I (A)

V_L (V)




I (A)




0
1,0
2,0
3,0
0
1,0
2,0




0,08-0,05
14





VERILER

RCL Devresinde

I (A)	V_R (Volt)	V_C (Volt)	V_L (Volt)	V_2 (Volt)
0,02	0,5	4,2	0,2	4,4
0,04	1,4	9,0	0,7	10,0
0,06	2,3	14,0	1,1	14,0
0,08	2,8	18,5	1,5	19,0
0,10	3,5	23,0	1,9	23,0
0,12	4,2	27,0	2,2	27,5

[illegible] gerilim farkı devrenin toplam gör. [illegible] [illegible] [illegible]

KESİM 4:

f = 50 Hz I = 0,4 A değerlerinde için L ve C değerleri aşağıdaki değerlerdedir;

$X_L = 2\pi f L$ $X_C = \frac{1}{2\pi f C}$ olur

RCL devresinde;

$X_L = 37 = 2\pi 50 \cdot L$ $X_C = 229,1 = \frac{1}{2\pi 50 C}$

$L = 0,12$ Henry $= 12$ mH $C = 1,39 \cdot 10^{-5}$ Farad $= 13,9\ \mu F$

RL devresinde;

$X_L = 26,4 = 2\pi 50 L$

$L = 0,08$ Henry $= 80$ mH

RC devresinde;

$X_C = 223,3 = \frac{1}{2\pi 50 C}$

$C = 1,43 \cdot 10^{-5}$ Farad $= 1413\ \mu F$

Devre / Nicelik	I (A)	C (F)	R(Ω)	Z(Ω)	Hesaplanan Z(Ω)
RCL Devresinde	0,12	1,39·10⁻⁵			
RL Devresinde	0,08				
RC Devresinde		1,43·10⁻⁵			

Güç faktörü?
Faz açısı ve yorumları!

İlk önce RCL ve RL devrelerinden bulunan farklı çıkan birler başa [illegible] RCL devrelerinden bulunan [illegible] 10^{-6} [illegible] güç [illegible] çıkmaktadır. Bu [illegible] ihmal edip birbir [illegible] elde [illegible]

Sonuç: Bu [illegible] devrelerinin özelliklerini gördük bu [illegible] direnç, kapasitör ve indüktansın dirençlerini RCL devresi için

$R = 25,0\ \Omega$ $X_C = 37,0\ \Omega$ ve $X_L = 229,1\ \Omega$ olarak bulduk.

RL devresi için $R = 33,3\ \Omega$ $X_L = 26,4\ \Omega$ olurken;

RC devresi için $R = 33,3\ \Omega$ $X_C = 223,3$

Nurkut
26.4.1991

DENEYİN ADI : MAGNETİK ALAN

[illegible] manyetik kuvvet çizgileri [illegible]
[illegible] Manyetik akının bir yüzeyle [illegible]
çizgilerinin [illegible] yüzeye dik [illegible]
celemek.
nü ölçmek.

ARAÇLAR: Demir tozu, çubuk mıknatıs, U mıknatıs, selenoid, pusula, helmholtz bobinleri, akım kaynağı, ampermetre, iletken tel, cetvel

KURAMSAL BİLGİ:

Herhangi bir mıknatısın kutupları elektrik yüklerinin davranışları gibi davranır. Yani aynı kutuplar birbirini iter, zıt kutuplar çeker. Kutuplar N ve S diye adlandırılır. Bir mıknatıs veya mıknatıs grubunun bir kutup üzerine uyguladıkları etki $\vec{E}$ alanına karşılık gelen $\vec{B}$ manyetik alan cinsinden uygun bir şekilde tanımlanır.

Bir manyetik alan çizgileri ve teğet çizgiler arasındaki ilişki aşağıdaki gibidir;

① Manyetik alan çizgilerine herhangi bir noktadaki teğetinin yönü o noktadaki manyetik alan vektörü $\vec{B}$'nin yönü ile verilir.

② Manyetik alan vektörünün büyüklüğü, birim kesitten geçen manyetik alan çizgilerinin sayısı ile orantılıdır. Alan çizgilerinin sık olduğu yerde $\vec{B}$'nin şiddeti fazla, seyrek olduğu yerlerde $\vec{B}$'nin küçük olduğu söylenebilir.

Düzgün bir manyetik alan çizgileri birbirine paralel ve eşit aralıklı çizgilerden oluşturulan alan çizgileri ile gösterilir. Düzgün manyetik alan içine konulan bir iletken tel üzerine etkiyen kuvvet ve sonuçta $\vec{B}$ nin doğrultusuyla mıknatıs oranlarla $\vec{B}$ nin [illegible] ilişkili olduğu görülmüştür.



şekilde görüldüğü gibi M mıknatısının [illegible] çubuk [illegible] bir [illegible] gelecek şekilde hareket eder. Mıknatıs $\vec{B}$ ile aynı doğrultuda ise tork sıfırdır. Mıknatıs bulunduğu konumda kalır. Eğer mıknatıs $\vec{B}$ ile aynı doğrultuda değilse geri çağırıcı kuvvet mıknatısı $\vec{B}$ doğrultusu etrafında titreştirir. Mıknatısın titreşim periyodu olan T alan [illegible] ile verilir.

$$T = \frac{1}{\sqrt{B}}$$ ile verilir.

Bu şekilde [illegible] bulunduğu sürece periyot o kadar küçük [illegible] daha hızlı titreşecektir. Sonuçta titreşimler [illegible] mıknatıs [illegible] döner. Bu mıknatısın temel çalışma [illegible] bir Hatta dünyayı yaklaşık olarak [illegible] boyunca yönelmiş [illegible] bir [illegible]

$$\frac{}{3,625-3,125} = 2$$

$$\frac{}{2}$$

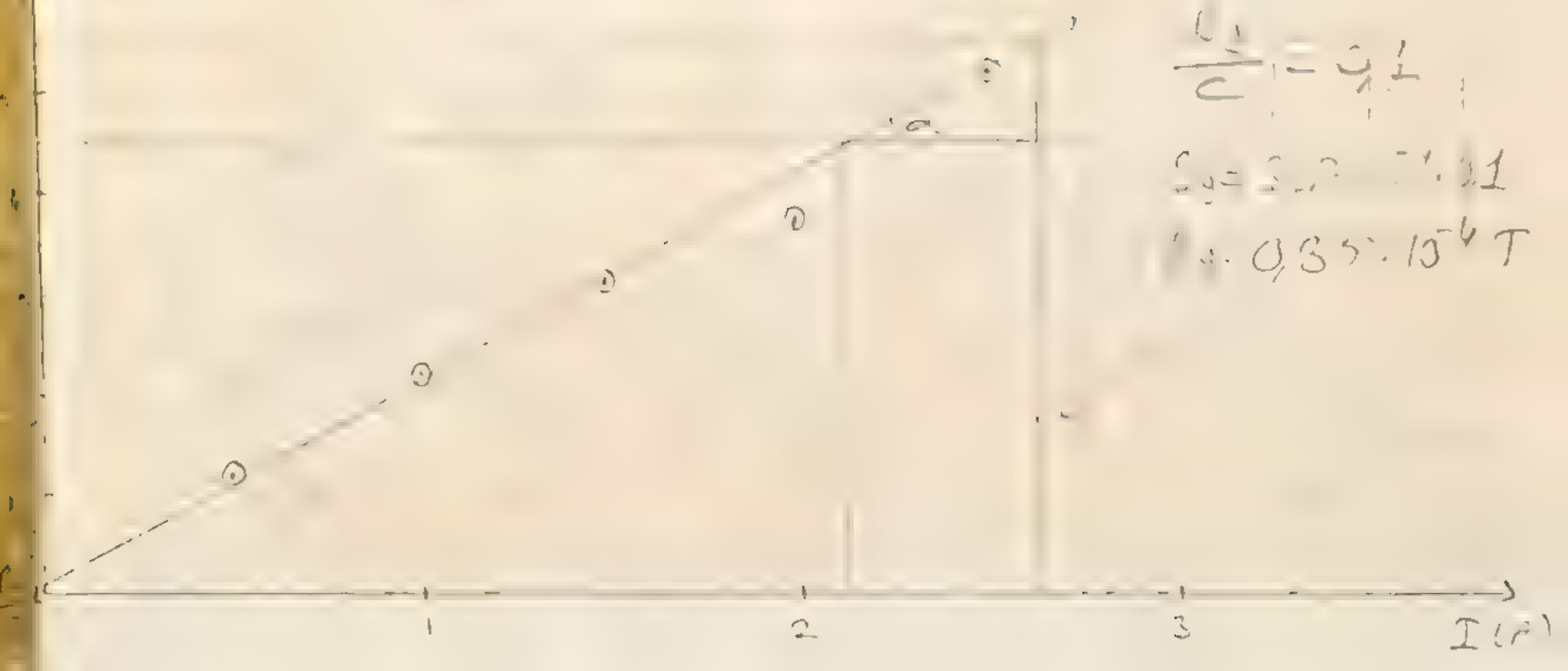

$$\frac{}{C} = 0,1$$

$$= 0,35 \cdot 10^{-6} T$$

Kesim I: Magnetik Alan Çizgileri

Demir tozlarının magnetik alardaki dizilişine bağlı olarak U mıknatıs, çubuk mıknatıs ve helmholtz bobinindeki magnetik alan çizgilerini gözlemledik.

a) Çubuk Mıknatıs

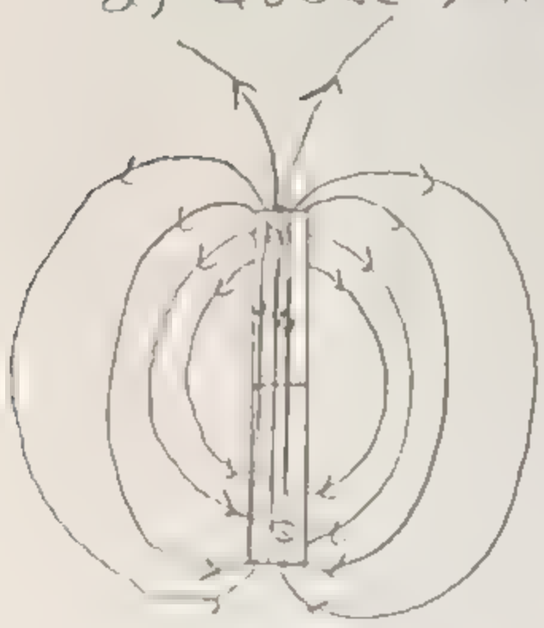

b) U mıknatıs

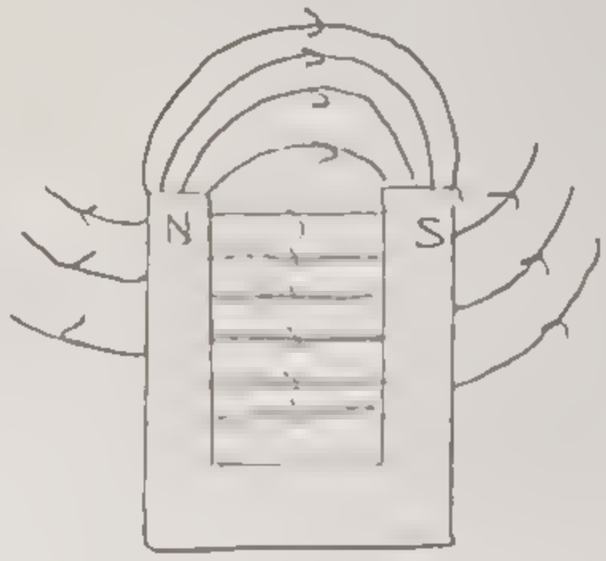

c) Helmholtz bobini

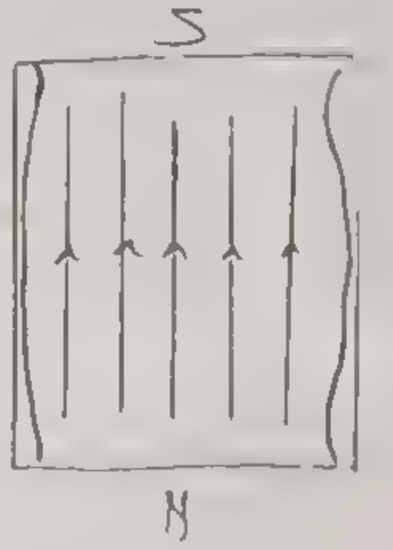

Yapılan bu deneyde a mıknatısın iç kısmındaki alan çizgileri düzgün [illegible] olarak gözüktü. Helmholtz bobininde Eğer demir [illegible] çubuk [illegible] gördük. [illegible] gibi [illegible] doğru yönlendirdi. Mag- [illegible]

Kesim II: Titreşici Mıknatısın Ölçeklenmesi:

Helmholtz bobininin fiziksel özellikleri:
Her bobindeki sarım sayısı: 154 sarım
Bobinlerin yarıçapı (r) : 0,2 m

$$k = 9 \cdot 10^{-7} \cdot \frac{154}{2} = 693 \cdot 10^{-6}\ T/A$$

I (A)	n=20 titreşim için geçen zaman (s)	Periyot T (s)	T^2 (s^2)	$1/T^2$ (s^{-2})
3,5	18,2	0,91	0,83	1,2
1,0	13,6	0,68	0,46	2,2
1,5	11,4	0,57	0,32	3,1
2,0	10,3	0,52	0,27	3,7
[illegible]	8,8	0,43	0,19	5,2

Bu verilerden yararlanarak $1/T^2$'ye karşılık I akımını grafiğe aktarırsak bize dairenin eğimi olan k/c'yi verir buradan da bilinen bobin manyetik alanını hesaplayabiliriz. Bu [illegible]

Bu aralıklarda, daha sonra yerin manyetik alanı yatay bileşeninin [illegible] değerini bulmamızı sağlar. Bu kaynaklarda gösterilen değer [illegible] değerini bulmamızı sağlar. Bu kaynaklarda gösterilen değer [illegible] bir değeri ikatemizin nedeni ol- [illegible] tamamen görsel olarak yapmamız. Yani 20 tam periyot pusula [illegible] kronometreyi durdurarak belli bir zaman dilimi [illegible] hata kaynağı olmadır. Ayrıca Ankara için yatay

bileşen $0,27 \cdot 10^{-4}$ T'dan farklı olabilir. ✓

SONUÇ: Bu deney sonucunda manyetik alan [illegible] ve yatay doğrultu manyetik alan bileşenini bulduk

[illegible]

① Yerin manyetik alanın yatay bileşeni hesaplarda $0,27 \cdot 10^{-4}$ T alınır ancak bizim bulduğumuz değer ise $1,35 \cdot 10^{-4}$ T idi bu durumda hata payı hatamız; $\Delta H = \frac{|1,35 \cdot 10^{-4} - 0,27 \cdot 10^{-4}|}{0,27 \cdot 10^{-4}} \cdot 100 = \%30$ olur.

② Çünkü çalıştığımız düzlem ve mıknatısın konumu yatay düzlemdir. Düşeyde bir bileşenimiz yoktur.

③ Çünkü [illegible] yatay bileşenine etki yordu.

④ Mıknatıs [illegible] yatay bileşenlerden [illegible] yapmak yerleşecektir.

⑤ Pusula ibresinin [illegible] kutup N, güney kutup S adını alır.

⑥ Mıknatıs bir manyetik alan değişken IV kutbu manyetik alan doğrultusunu [illegible] 10.5 yapar. Böylece zıt yönlü 2 kuvvet [illegible]

30.4.91 Ü.U.

DENEYIN ADI : TIO 13 AKIM VE GERILIM ÖLÇME DÖNÜNMESI

DENEYIN AMACI : ① D'Arsonval düzeneğini tanımak;
② D'Arsonval düzeneğli bir ölçü aracını akım ve gerilim ölçümlerinde kullanmayı öğrenmek;
③ Akım ve gerilim ölçmeği öğrenmek.

ARAÇLAR : D'Arsonval düzeneğli mikroampermetre, devre tablası, dirençler, bağlantı telleri, DC güç kaynağı, sayısal volt-ampermetre.

KURAMSAL BİLGİ :

Bir devredeki akımı ölçmenin en kolay yöntemi, bunu bir akım ölçe... [illegible] ... akımdır ... [illegible] ... akım ölçere para... [illegible] ... akım ölçmek ... [illegible] ... direnci bulmanın matematiksel yöntemi şöyle verilebilir.

$V_o = I_o R_o$

$V_R = I_R R_R$ ve $V_o = V_R$ (paralel bağlamda ölçmeden);

$I_o R_o = I_R R_R$ buradan $R_R = \frac{I_o R_o}{I_R}$ olur.

Bu durumda akımçerin iç direnci ise;

$R_i = \frac{R_R \cdot R_o}{R_R + R_o}$ olacaktır.

... [illegible] ... paralel bağlanır. Böylece ... [illegible] ... toplam direnç;

$R_T = R_o + R_R$ olacaktır.

[illegible]

Verileri:
Kullanılan D'arsonval düzeneğinin tam ölçeği akım: 100 μA
D'arsonval düzeneğinin direnci: 700 Ω

Biz bu deneyde 10 mA'lik bir akımölçer yapmak istiyorum. Bu ... [illegible] ... bağlamamız gerekir direnç büyüklüğünü bulalım. Direnci paralel bağlıyacağımız için;

$I_o \cdot R_o = I_R \cdot R_R \Rightarrow R_R = \frac{I_o R_o}{I_R} = \frac{100 \cdot 10^{-6} \cdot 700\,\Omega}{0.0999} = 0,7\,\Omega$ olmalıdır. Bu akımölçerin güvenilirliğini sınamak için aşağıdaki devreyi kurduk ve çeşitli gerilim değerlerinde akım değerleri okuduk. [illegible]



U = 2,0V

Ölçüm Sayısı	Güvenilir Akım Ölçer I (mA)	Yapılan Ölçmeler I (mA)
1	20.0	20.0
2	18,5	19.0
3	16.0	17.0

U = 4,0V

Ölçüm Sayısı	Güvenilir Akım ölçer I (mA)	Yapılan ölçmeler I (mA)
1	38,5	39.0
2	50.0	51,0
3	75.0	76,5

U = 6,0V

Ölçüm Sayısı	Güvenilir Ölçer I (mA)	Yapılan Ölçer I (mA)
1	50	57
2	60	61
3	67,5	69

U = 8,0V

Ölçüm Sayısı	Güvenilir Ölçer	Yapılan Ölçer
1	76	70
2	77,5	80
3	87	90

Yapılan ölçmelerde 2,0V, 4,0V ve 6,0V'luk değerlerde ölçülen akım değerleri ölçülen gerilim değerleriyle orantılı iken 8,0V için akımı yükseltildiğinde ölçülen değer beklenen değeri yakalayamadı.

Ölçü aletinin iç direncini hesaplamak için kullanacağımız bu kez 10mA'lik ölçme değeri. Bunun için direnç değerini şöyle hesaplayabiliriz.

$$I_0 R_0 = I_n R_n \Rightarrow R_n = \frac{I_0 R_0}{I_n} = \frac{100 \cdot 10^{-6} \cdot 700}{0,0099} = 7,1\,\Omega$$

7,1 Ω'luk direnç bulunmadığı için 7Ω'luk direnci 1Ω'luk direnç paralel olacak biçimde güvenilir ölçmelerle ölçtük.

U = 2V

Ölçüm Sayısı	Güvenilir Ölçer I (mA)	Yapılan Ölçer
1	2,7	2,6
2	3,0	2,7
3	2,8	2,6

U = 4V

Ölçüm Sayısı	Güvenilir Ölçer I (mA)	Yapılan Ölçer I (mA)
1	6,0	5,0
2	6,5	6,0
3	5,3	5,0

U = 5,4V

Ölçüm Sayısı	Güvenilir Ölçer I (mA)	Yapılan Ölçer I (mA)
1	5,0	7,1
2	5,5	5,1
3	5,9	5,6

Bu ampermetre ise 5,4V için ölçülen akımlarda güvenilir ölçmelere yaklaşmıştır.

10mA'lik ölçmelerde değişik akım ölçmeleriyle hesaplanan değerler birbirine yakın sonuçlar vermekle birlikte hata payı yüksek bir değer olmaktadır.

Aşağıdaki devreyi kurarak değişik değerlerinde her iki ampermetre ile akım değerlerini ölçünüz. (Değişik dirençler üzerinde).

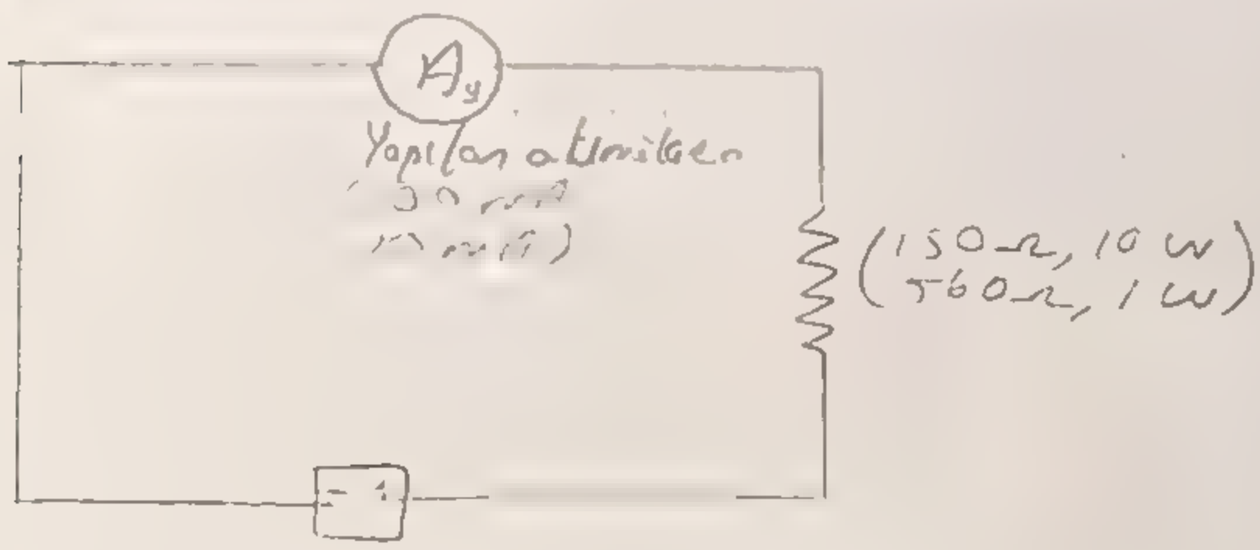

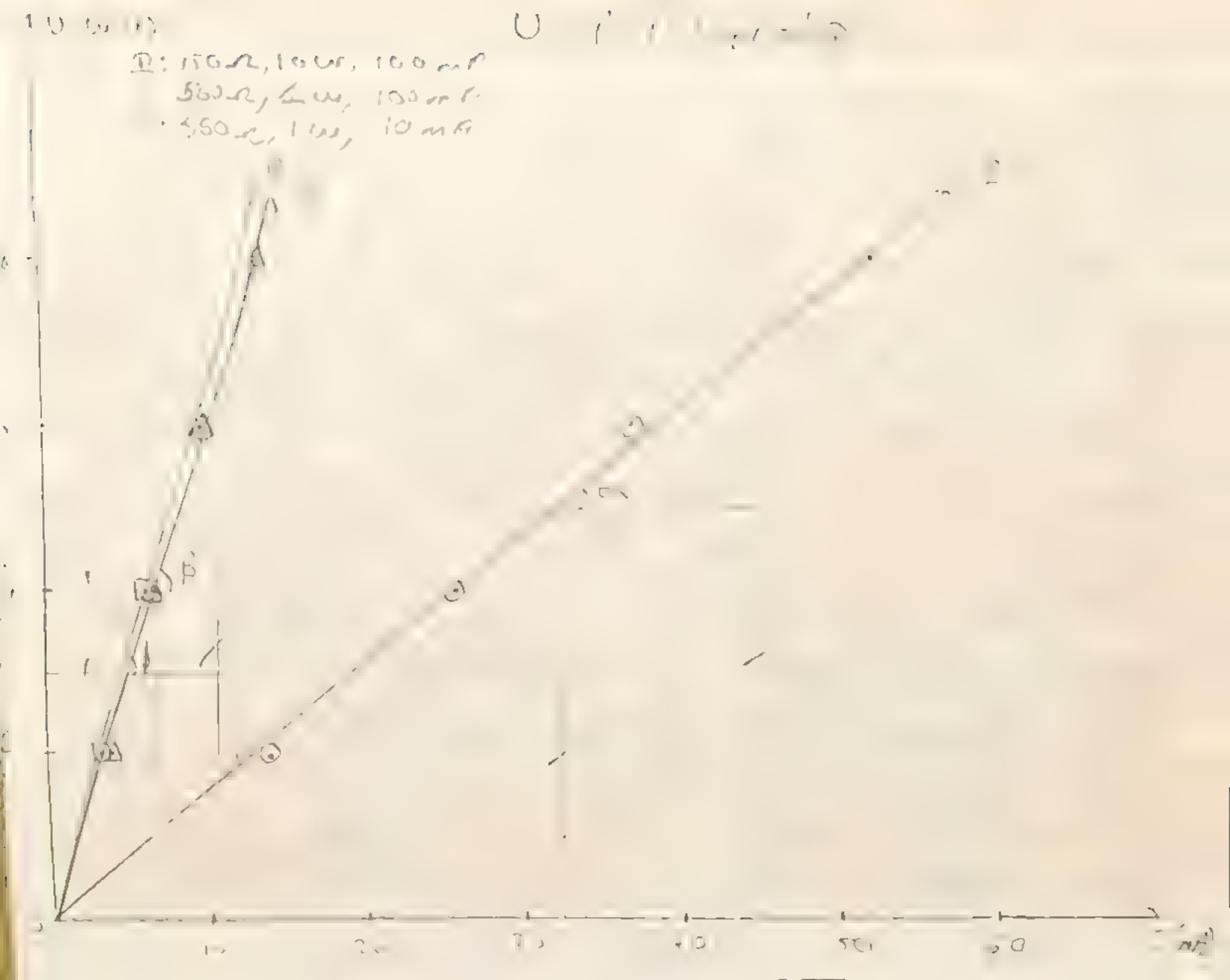

Devredeki Direnç	Kullanılan Ampermetre	U (Volt)	I (mA)	
150 Ω, 10 W	100 mA	2	14	I
150 Ω, 10 W	100 mA	4	26	
150 Ω, 10 W	100 mA	6	38 52	
560 Ω, 1 W	100 mA	2	4	II
560 Ω, 1 W	100 mA	4	7	
560 Ω, 1 W	100 mA	6	10 14	
150 Ω, 1 W	10 mA	2	3,4	III
150 Ω, 1 W	10 mA	4	6,4	
150 Ω, 1 W	10 mA	6	9,4	

?

Bu verileri kullanarak $V = f(I)$ grafiğini çizelim, ve çıkan doğruların eğimlerinden R değerlerini bulalım.

I, II ve III için sırayla eğimleri hesaplarsak;

$$\tan\alpha = m = R_I = \frac{7-5}{(45-33,5)\times 10^{-3}} = 160\ \Omega$$

$$\tan\beta = m = R_{II} = \frac{6,9-4}{(12-7)\cdot 10^{-3}} = 580\ \Omega$$

$$\tan\phi = m = R_{III} = \frac{6,9-3}{(11-5)\cdot 10^{-3}} = 650\ \Omega$$

Bunu bir tabloya geçirirsek;

	V (Volt) Cinsinden	R (Ω) Cinsinden
I	150	160
II	560	580
III	560	650

Daha önceki bir deneyde bulduğumuz 10 mA'lik ampermetre devreye daha büyük bir direnç bağlandığında daha büyük bir akım değeri gösteriyordu. Bu da 10 mA'lik ampermetrenin gerçek değeri daha büyük olduğunu gösterir. Bu nedenle 150 Ω'luk direnç bulunduğunda daha sağlıklı olur.

Kesim II : VOLTMETRE

Bu bölümde ilk kesimdeki d'Arsonval düzeneğini kullanarak 20 V'luk bir voltmetre yapılacaktır. Bunun için gerekli direnç değerini bulmak için aşağıdaki işlemleri yapalım.

$R_i = \frac{V_{max}}{I_{max}} = \frac{20}{100\cdot 10^{-6}} = 200\ k\Omega$ olmalı yine ohm yasasını kullanarak I_{max} için $(R_i - R_s)I_{max}$ =) $R_s = \frac{20}{100\cdot 10^{-6}} - 200 = 200k\Omega - 200\Omega = 200k\Omega$ olmalıdır. Bu gerilim değerinde gösterilir voltmetre ile kontrol edilir.

Gerilim Kaynağı (V)	Gösterilen Değer (V)	Yapılan Ölçme (V)
2	2,2	2,1
4	4,1	4,0
6	6,0	6,0
8	8,0	7,8
10	9,7	9,5
12	11,5	11,0

Daha sonra, aşağıdaki devreyi kurarak AB, BC, CD ve AD roi

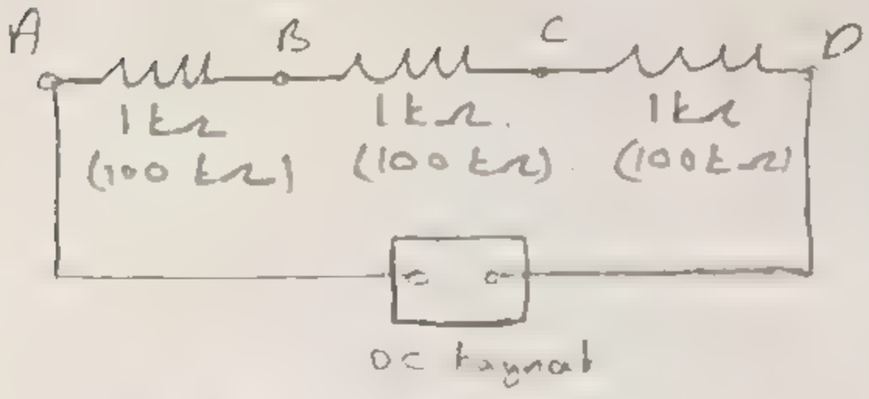

U = 8 V

Deneme No	Kullanılan Voltmetre	U_{AD} (V)	U_{AB} (V)	U_{BC} (V)	U_{CD} (V)	$U_{AB}+U_{BC}+U_{CD}$ (V)
1	Yapılan	7,6	2,2	2,2	2,2	6,6
	[illegible]	0,6	2,5	2	2,5	7,5
100	Yapılan	7,6	2,0	2,0	2,0	6,0
	[illegible]	8,0	2,5	2,5	2,5	7,5

Devrede 100 kΩ'luk direnç varken yaptığımız gerilim farkları bulduğumuz değerleri devredeki direnç cinsinin toplamı diyagramın aynı bağımsız olmadığı.
Çünkü devrenin büyüklüğü değeri diğer direnç küçülmekte bunu bas.

1. olarak gerilim farkı bulmamız lazım.

Sayleti;

$$\frac{1}{R_e} = \frac{1}{R_T} + \frac{1}{R_{100}} = \frac{1}{200} + \frac{1}{100} \Rightarrow \frac{1}{R_e} = \frac{3}{200}$$

$$\Rightarrow R_e = 200/3\ \Omega$$

$$U_{AD} = \left(\frac{200}{3} + 200\right) i \Rightarrow 8 = \frac{800}{3} i \Rightarrow I = \frac{24}{800}\ A.$$

$I_{100} = \frac{U_{AB}}{200} = \frac{4}{200} = 20$ olur.

[illegible]

CEVAP / 26.4.91

Benim için [illegible] akımı bulduğum. $P = \frac{U}{R}$ [illegible] direnci değiştirmek için. Çünkü amper ohm ya R sabit olmaz

Kesim II.

26.4.91
Jet.

Diğer arkadaşlar basamağındadır.

[illegible] $I_{AB} = 50\,10^6\ I$
$U_{BC} = 100 \cdot 10^6\ I$
$I_{CD} = 200\,10^6\ I$ olacak

[illegible] U_T olursa $U_{AB} = \frac{U}{7}$ $U_{BC} = \frac{2U}{7}$ $U_{CD} = \frac{4U}{7}$

[illegible] $\frac{24}{200} = \frac{U_{AB}}{100}$ [illegible] $\frac{100 \cdot 24}{57,6} = 83,3$ U olur Bu [illegible] gerilim $U_T = 24 + 83,3 = 107,3$

DENEYİN ADI: TFO 10 MERCEKLER

DENEYİN AMACI: 1) Yakınsak merceklerin odak uzaklığını ölçmek.
2) Yakınsak bir mercekle sanal ve gerçek görüntüyü gözlemek
3) Mercek formülünü incelemek
4) Bir teleskop yapmak.

ARAÇLAR: Optik ray, mercek tutacakları, ekranlı tutturucular, küçük ve büyük odak uzaklığından yakınsak mercekler, ışıklı cisim, pasta cam, cetvel

① KURAMSAL BİLGİ: Optik sistemlerin çoğu birden fazla yansıtıcı veya kırıcı yüzeyler içerir, ederler iki yüzey tarafından oluşturulan görüntü ikinci yüzey için cisim rolünü oynar, ikinci yüzeyin görüntüsü ise son görüntüdür. Bu aşağıdaki bir şekilde gösterilmiştir.

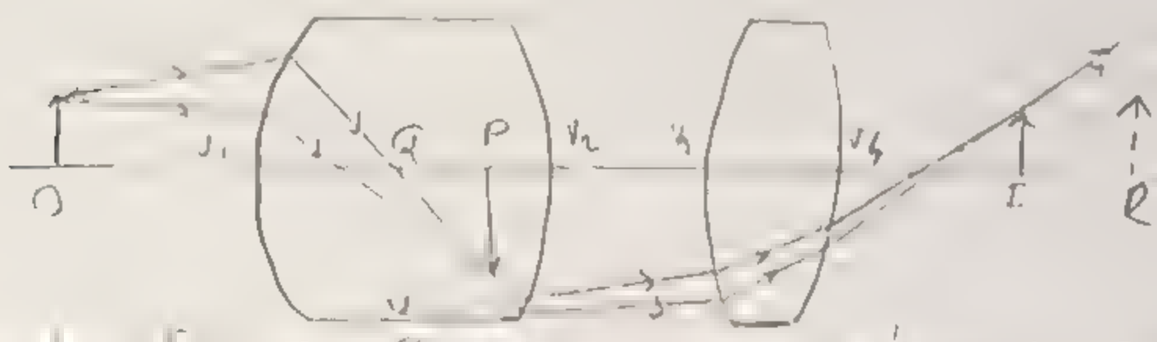

Burada O ve I cisim ve görüntü noktaları, P ve Q ise kırılma yüzeylerinin tepe noktalarıdır. Bu yüzeyler bir yüzeyle özdeş olduğunda ise bu yüzeyler birleşebilirler.

Eğer yüzeyler paralel olmasına rağmen merkezleri çakışık olan yüzeyler ise bu durumda ışınlar yönlerini değiştirmeyeceklerdir.

Gerçek görüntü ters yönde olur ve pozitiftir.

② İnce kenarlı mercekler iki küresel yüzeyle sınırlanmış saydam ortamlardır. Bu ortamlardan kırılarak geçen ışınlar bir yüzeyde özdeş görüntüler oluşturabilirler.

Eğer yüzeyler paralel olmasına rağmen merkezleri çakışık olan yüzeyler ise bu durumda ışınlar yönlerini değiştirmeyeceklerdir.

Gerçek görüntü ters yönde olur ve pozitiftir.

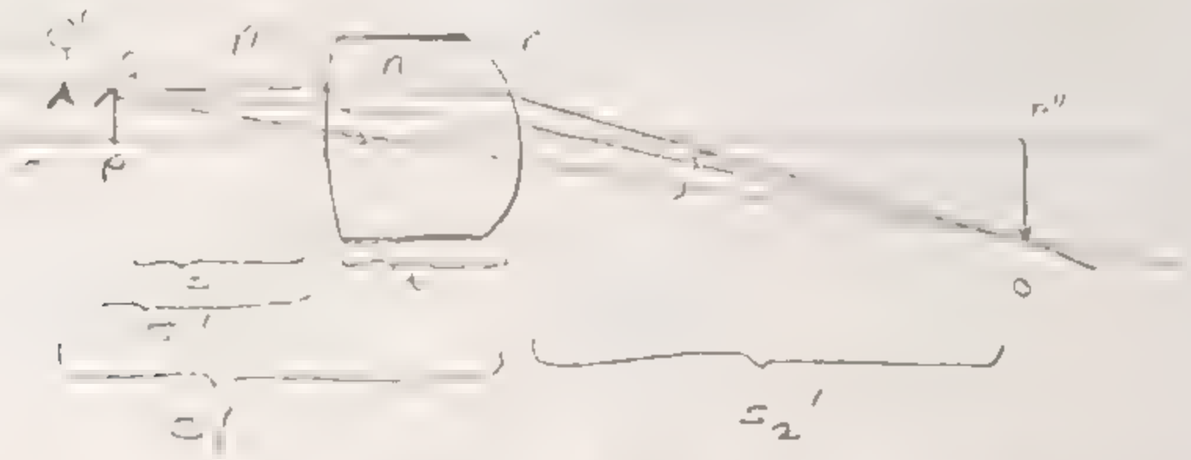

İnce kenarlı mercekler iki küresel yüzeyle sınırlanmış saydam ortamlardır. Bu ortamlardan kırılarak geçen ışınlar bir yüzeyde özdeş görüntüler oluşturabilirler. Bu nedenle

[illegible] ortam hava alınırsa 1. kırılma için;

$$\frac{1}{s_1} + \frac{1}{s_1'} = \frac{n-1}{R_1}$$

İkinci kırılma için,

$$\frac{1}{s_2} + \frac{1}{s_2'} = \frac{1-n}{R_2}$$ bu eşitliği $s_2 = -s_1'$ kabul edip toplarsak,

$$\frac{1}{s_1} + \frac{1}{s_2'} = (n-1)\left(\frac{1}{R_1} - \frac{1}{R_2}\right)$$ olur. İnce kenarlı mercek için s_1 cisim uzaklığı s_2' de görüntü uzaklığı olduğundan

$$\frac{1}{s} + \frac{1}{s'} = (n-1)\left(\frac{1}{R_1} - \frac{1}{R_2}\right)$$ olur. Bilinen işaret kabulleri bu denkleme uygulanır.

Bir ... Lensci mercegin odak uzakligi ... bir ... ile bulunur:

① Hareketli ... nokta ... uzakligidir

② ... bulunan bir cisim noktasını görüntüsünün ... uzaklıgıdır. ... ve s' 'yü ... ile bulunur

$$\frac{1}{f} = (n-1)\left(\frac{1}{R_1} - \frac{1}{R_2}\right) \text{ yazarız}$$

... ve ... ile bulunur

$$\frac{1}{s} + \frac{1}{s'} = \frac{1}{f} \text{ bulunur bu genel mercek denklemidir.}$$

... bağıntısı ... bağıntısı $m = \left(\frac{1 \cdot s'}{n s_1}\right) \cdot \left(-\frac{n_2 \cdot 1}{1 \cdot s}\right) = -\frac{s'}{s}$ olur

③ Cam ... ışın ... ışın ... ışın

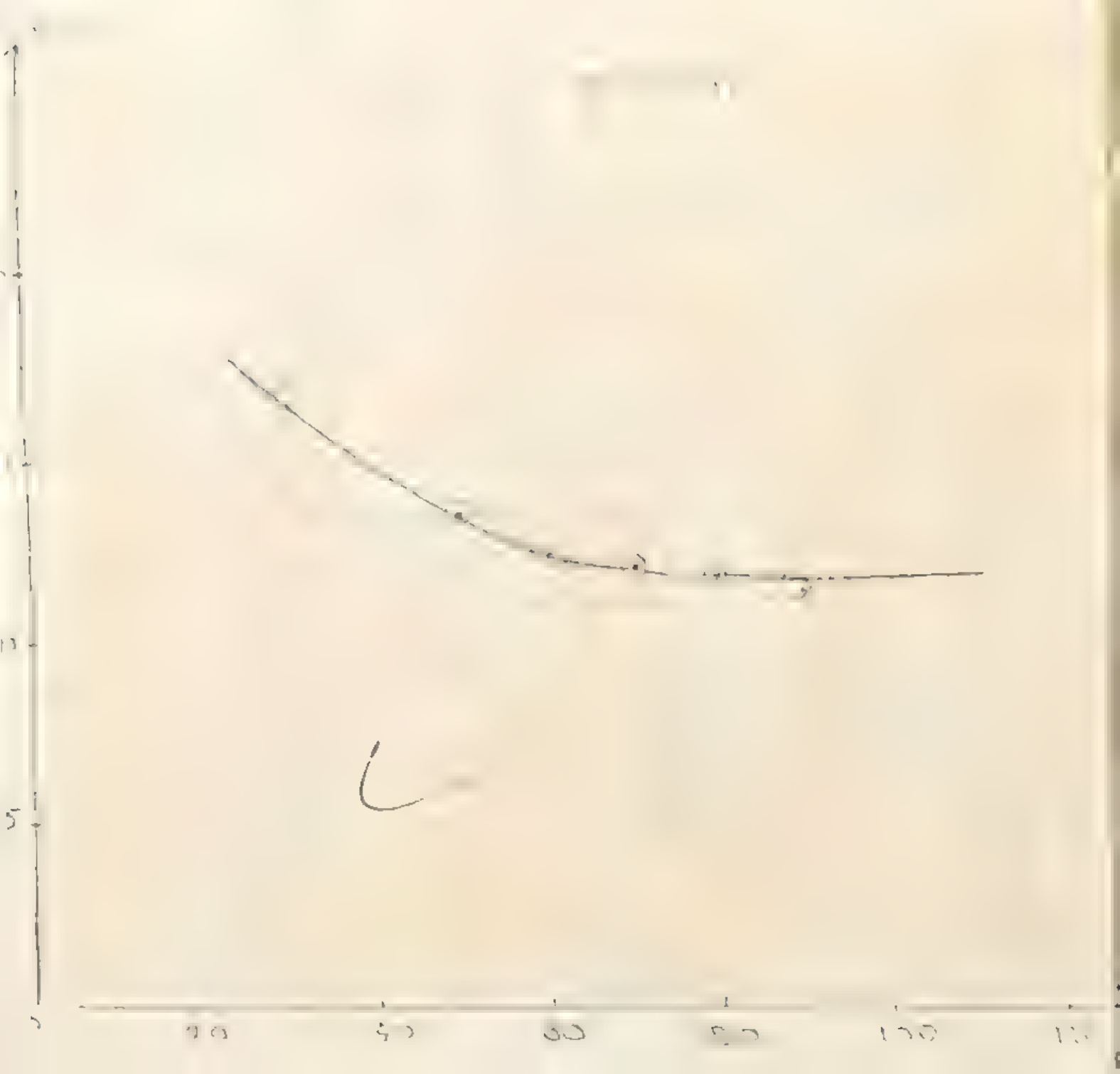

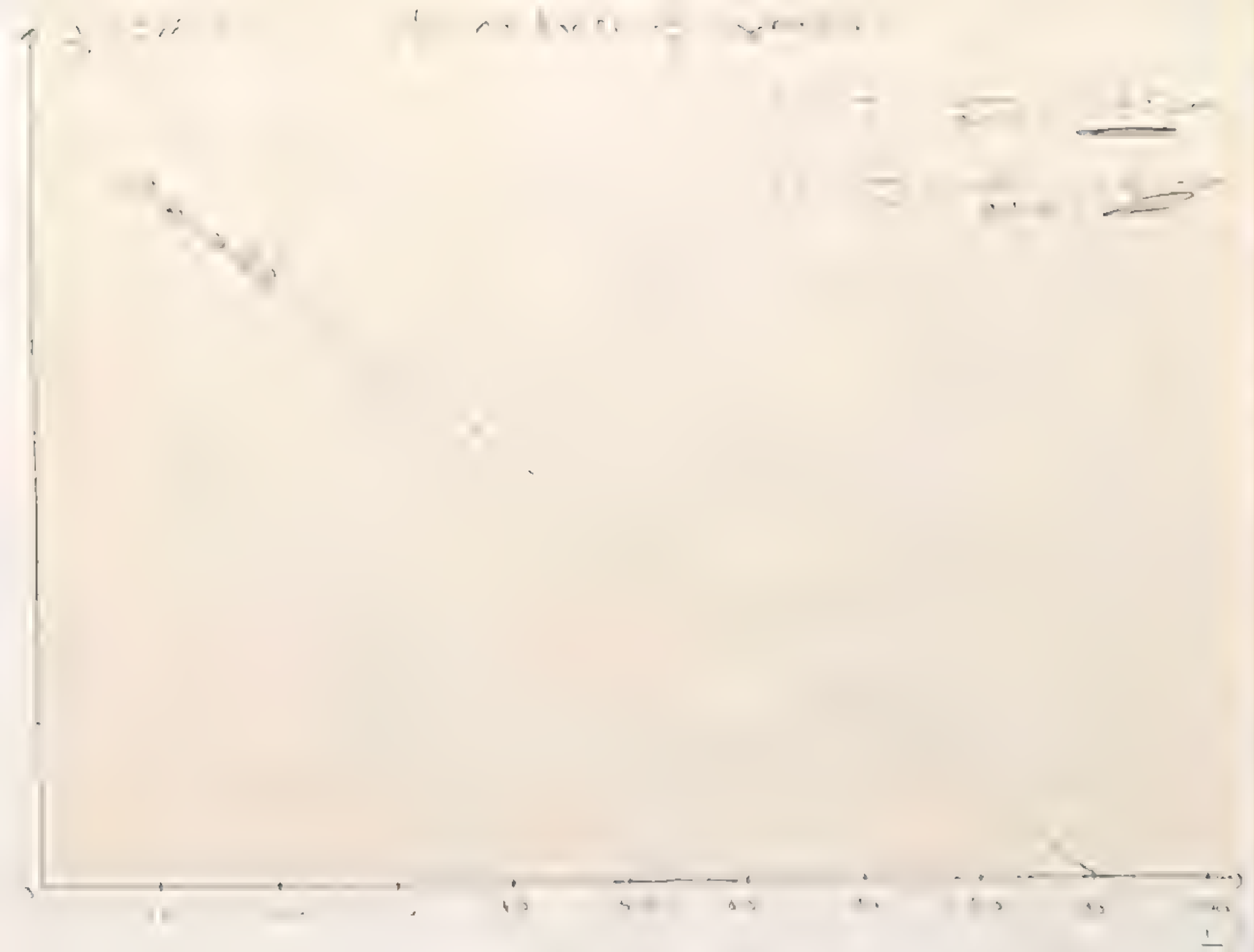

KISIM II : Ince Kenarlar

h(Cisim yüksekliği) = 3,3 cm

Cisim Uzaklığı (cm)	Görüntü Uzaklığı (cm)	Cisim Yüksekliği (cm)	Görüntü Yüksekliği (cm)	h'/h	1/s (cm⁻¹)	1/s' (cm⁻¹)
50,0	13,6	1,15	0,27	0,35	0,020	0,074
60,0	12,9	0,9	0,22	0,27	0,016	0,077
70,0	12,3	0,75	0,18	0,23	0,014	0,080
80,0	11,9	0,7	0,15	0,21	0,012	0,083
90,0	11,6	0,6	0,13	0,19	0,010	0,086

Kırmızı ışık için en kısa uzaklık s'nin en büyük değeri ve en küçük $\frac{1}{s'}$ değeri grafikten bulunur.

Bu grafik kullanılarak grafiğe doğru çıktığını gördük Bu grafiğin eksenle kesişim noktalarından; $x = 90 \cdot 10^{-3}$ cm $\quad f = \frac{1}{x} = 11,1$ cm.

" " " " ; $y = 95 \cdot 10^{-3}$ cm $\quad f = \frac{1}{y} = 10,5$ cm.

III Ince Teleskop

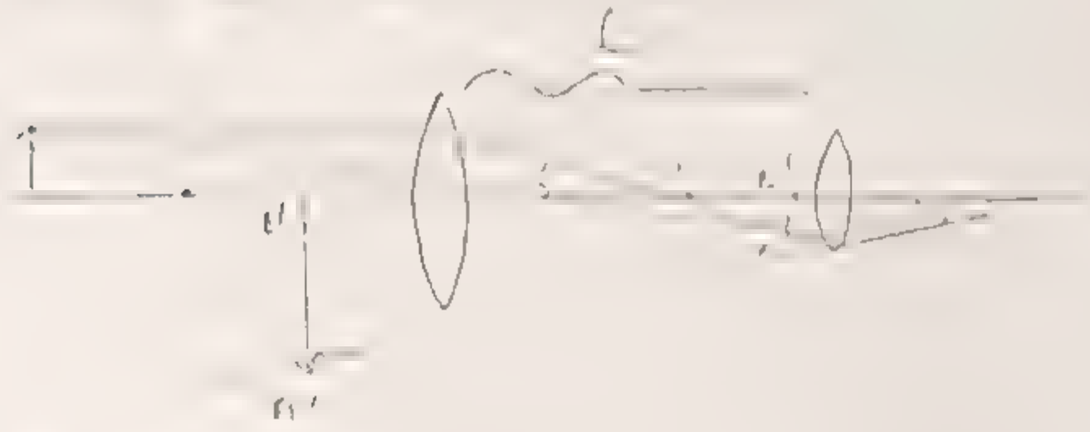

Cevap =

Teleskop iki kısımdan oluşur.

Objektif ayna üzerine düş neyecek ve görüntü oluşmayacaktır

Objektif mercek sistemi daha doğrudur

$\frac{1}{s} + \frac{1}{s'} = \frac{1}{f}$ $\quad s = \infty \quad \frac{1}{s'} + \frac{1}{\infty} = \frac{1}{f} \Rightarrow \frac{1}{s'} = \frac{1}{f}$ $\quad f = s'$

$\frac{1}{\infty} + \frac{1}{s} = \frac{1}{f} \Rightarrow \frac{1}{\infty} + \frac{1}{s} = \frac{1}{f}$ $\quad f = s$ olur

8.5.1991

DENEYİN ADI: GİRİŞİM VE KIRINIM (FD-11)

DENEYİN AMACI: ① Tek, iki ve çok yarıklı girişim desenlerini incelemek.

② Kırınım ağı kullanarak ışığın dalga boyunu hesaplamak.

?

1. GİRİŞİM: Bir ...
2. Kırınım Eğilme ... yayılma eğilimleri?
3. ... yayılma hızı ile ... sahiptir.

4. ...

Kuramsal Bilgi

...



Simetriden dolayı S_1P_0 ve S_2P_0 yolları eşit olacağından iki kaynaktan gelen dalgalar yine yapıcı girişim yapacaklardır. Bu nedenle O değerinde her bir dalganın iki katı şiddetinde bir ışık oluşacaktır. Bu noktaya merkezi maksimum adı verilir.

$S_2P_1 - S_1P_1 = \lambda$ olur.

Bu yolları farkının bir dalga boyuna eşit olduğu P_1 noktasında da yapıcı girişim olacaktır. P_2 için bu durumu;

$S_2P_2 - S_1P_2 = n\lambda$ dır. Bu bir yol farkıdır. Genel olarak bu ifade

Eğer seçilen nok- [illegible] bu uzaklık [illegible] ($\lambda/2$ - S.r) daha boyunun yarısı kadar [illegible] bu durumda iki noktadan çıkan dalgalar [illegible] yarım periyot farklı olacaklar. Bu durumda bir [illegible] kaynaklardan uzaklığı [illegible] çok büyük [illegible] olan genlik 0 olacak [illegible] fonksiyonu [illegible]

olur.

② İKİ KAYNAKTA GİRİŞİM:

P




a
b
c
d
e
f
P

a) En geniş aralık.

b) 0,5 mm



c) 0,3 mm



d) 0,2 mm



e) 0,1 mm

f) En dar durum

$\lambda = d$

① Çift Yarıkta Girişim

② Üç Yarıkta Girişim

③ 4 Yarıkta Girişim



④ 5 Yarıkta Girişim

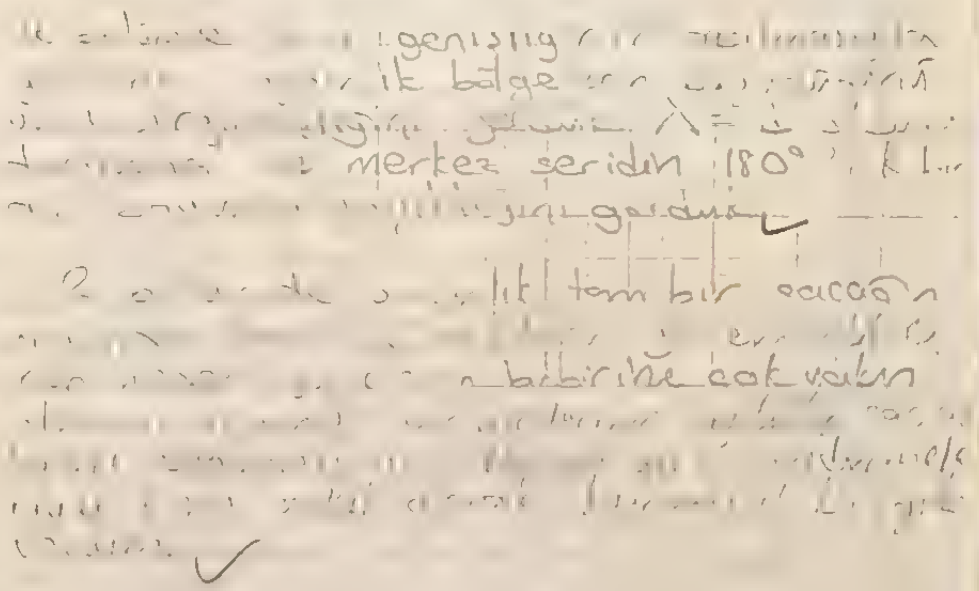

Kaynak sayısı 2, 4, 8 ve çok farklı olan durumlarda oluşan girişim şekilleri

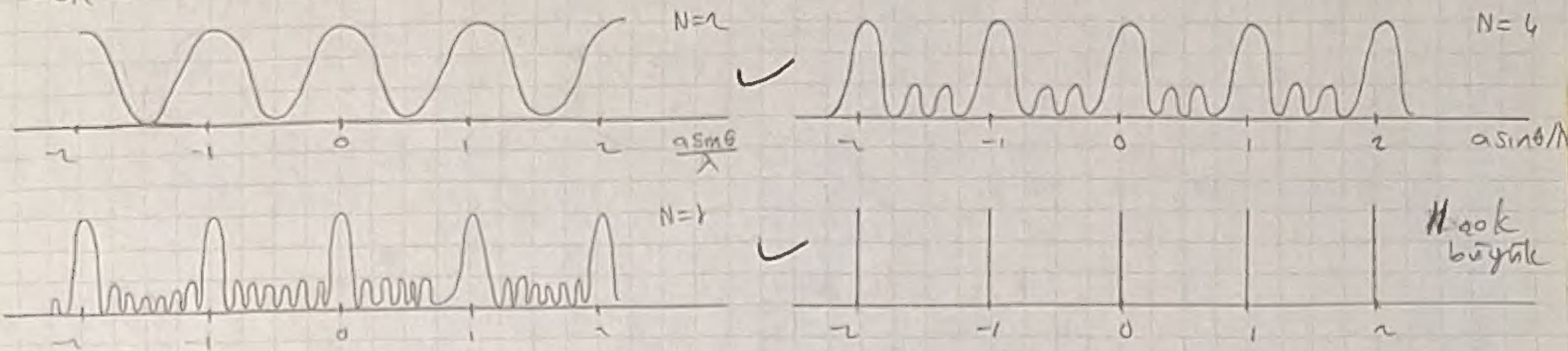

2 yarıkta şiddet dağılımı;

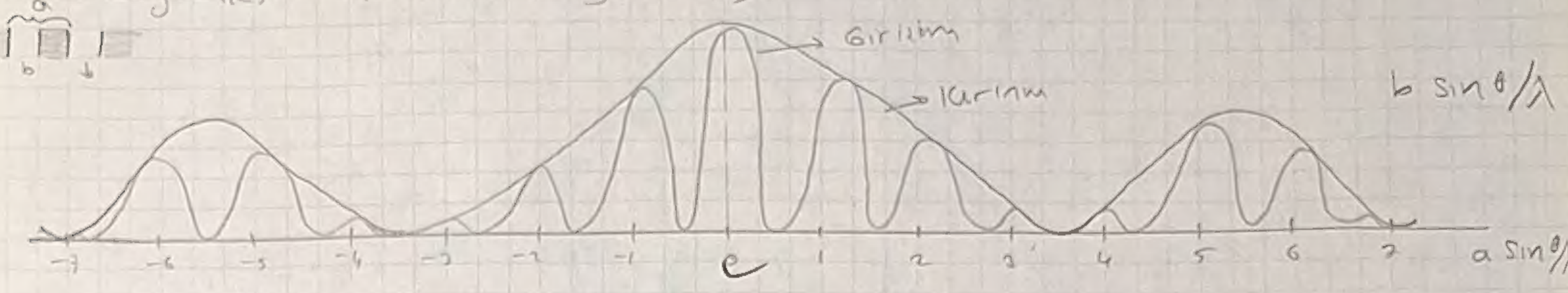

Kaynaklar: ① Modern Üniversite Fiziği; 3. cilt, Richards, Sears, Wehr, Zemansky; 882, 76-95
② University Physics, 7. baskı; Sears, Zemansky, Young; 917-933
③ Fundamentals of Physics, Halliday, Resnick; 2. baskı; 722-762.
④ Physics; Alonso, Finn; 1. baskı, 675. ve 704. sayfalar

KESİM I. Değişik Yarıklarda Girişim ve Kırınım:

Tek yarığın değişik genişlik değerlerinde ve değişik yarık sayılarında girişim deneylerini gözlemledik.

KESİM II: Kırınım Ağı

a uzunluğu = 78,4 cm.

Ne Topla Verileri: a uzunluğu = 78,4 cm.
λ dalgaboyu = 587,6 nm
b uzunluğu = 55 cm.

Buradan $\sin\theta = \frac{\frac{1}{2}b}{\sqrt{d^2+(\frac{1}{2}b)^2}}$ formülünden $\sin\theta = \frac{\frac{1}{2}\cdot 55}{\sqrt{78,4^2+(\frac{1}{2}\cdot 55)^2}} = 0,33$

$d = n\left(\frac{\lambda}{\sin\theta}\right) = 1 \cdot \frac{587,6\cdot 10^{-7}}{0,33} = 1780$ nm.

$\frac{1}{d}$ bize cm'deki yarık sayısını verecektir. $\frac{1}{d} = \frac{1}{1780\cdot 10^{-7}} = 5620$ yarık olur.

Şimdi Cıvıl tüpü için çizgi spektrumunu inceleyelim. Bu incelemenin sonucunda bulunan veriler şunlar oldu.

Hg için;

Renk	b(cm)	b/2 (cm)	Sin θ	λ=d Sin θ (Å)
Sarı	53,07	26,6	0,32	5696
Yeşil	50,0	25,0	0,30	5340
Mor	39,0	19,5	0,24	4272

$1 Å = 10^{-8} m$

$$\sin\theta_{(sarı)} = \frac{\frac{1}{2}b}{\sqrt{a^2+(\frac{b}{2})^2}} = \frac{26,6}{82,78} = 0,32$$

$$\sin\theta_{(yeşil)} = \frac{25,0}{82,29} = 0,30$$

$$\sin\theta_{(mor)} = \frac{19,5}{80,79} = 0,24 \text{ olur.}$$

Hg'nin için verilen kitap değerleri;
sarı için 5770 – 5790 Å
yeşil için 5461 Å
mor için 4078 – 4047 Å idi.

Birim bulduğumuz değerler için;

$\lambda_{sarı} = 17800 \cdot 0,32 = 5696$ Å — Deneydeki hata sınırları göz önüne alındığında bulunan sonuçlar ordinal değerlerle aynıdır.

$\lambda_{yeşil} = 17800 \cdot 0,30 = 5340$ Å

$\lambda_{mor} = 17800 \cdot 0,24 = 4272$ Å

H_2 için;

Renk	b(cm)	b/2 (cm)	Sin θ	λ=d Sin θ (Å)
Kırmızı	61,0	30,5	0,36	6408
Yeşil	50,0	25,0	0,30	5340

$$\sin\theta_{(kırmızı)} = \frac{\frac{1}{2}b}{\sqrt{a^2+(\frac{b}{2})^2}} = \frac{30,5}{84,12} = 0,36$$

$$\sin\theta_{(yeşil)} = \frac{25,0}{82,29} = 0,30$$

Buradan dalga boyu hesaplamalarına geçersek;

$\lambda_{(kırmızı)} = d \sin\theta_{(kırmızı)} = 17800 \cdot 0,36 = 6408$ Å

$\lambda_{(yeşil)} = d \sin\theta_{(yeşil)} = 17800 \cdot 0,30 = 5340$ Å

Kırmızı ışık 6300 ila 7000 Å, yeşil ışık ise 4800 ila 5300 Å* arasında bir dalga boyuna sahiptir. Bu değerlerde hata oranları göz önüne alındığında bulduğumuz sonuçlarla uyuşmaktadır.

* University Physics; Sears Zemansky, Young, 7. baskı, 827. sayfa

SONUÇ: Yaptığımız deney sonucunda Hg deşarj tüpünde, sarı ışığın dalga boyunu 5696 Å, yeşilinkini 5340 Å ve moruntuni 4292 Å olarak bulduk yine Hg için çizgi spektrumu gözlemledik

Hg deşarj tüpüyle yaptığımız deneyde bond spektrumu gözlemlerken kırmızı ışığın dalga boyunu 6408 Å ve yeşilinkini 5340 Å olarak bulduk ✓

Cevaplar:

① Yarık sayısının artışıyla birlikte her yarık ekran üzerinde kendi girişim desenini oluşturur. Ama bunlar arasında belirli bir gerçeklik olduğundan bunların oluşturduğu aydınlık ve karanlık saçaklar çakışacak ve bazı yerlerde birbirlerini söndürecekterdir. Böylece normalde teorimiyle aydınlık görmemiz gereken bölgeler de karanlık bölgelere rastlayacağız.

② Yarıkların genişliğinin film ile perde arasındaki uzaklıktan çok küçük olması gerekir.

③ Sabun köpüğü üzerinde oluşan kırınımı örnek verebiliriz yine gözlerimizi kısıp ışığa baktığımızda kırınım olayını görebiliriz.

II. Kesim

① Kırmızı renk en büyük kırınıma uğrar.

② Ağdaki birim boşluğa düşen çizgi sayısı iki katına çıkarsa yarıklar arası uzaklık $\frac{d}{2}$ olur.

$\sin\theta = \frac{2\lambda}{d}$ ilk durum $\sin\theta = \frac{\lambda}{d} = \frac{\frac{b}{2}}{\sqrt{a^2+(\frac{b}{2})^2}}$

son durum $\sin\theta = \frac{\lambda}{d} = \frac{2\lambda}{d} = \frac{\frac{x}{2}}{\sqrt{a^2+(\frac{b}{2})^2}}$

taraf tarafa bölersek; $\frac{1}{2} = \frac{\frac{b}{2}}{\sqrt{a^2+(\frac{b}{2})^2}} \cdot \frac{\sqrt{a^2+(\frac{x}{2})^2}}{\frac{x}{2}} = \frac{b}{x}\sqrt{\frac{a^2+\frac{x^2}{4}}{a^2+\frac{b^2}{4}}}$

$\Rightarrow \frac{1}{2} = \frac{b}{x}\sqrt{\frac{4a^2+x^2}{4a^2+b^2}} \Rightarrow \frac{1}{4} = \frac{b^2}{x^2}\left(\frac{4a^2+x^2}{4a^2+b^2}\right)$

$\Rightarrow \frac{1}{4} = \frac{b^2}{x^2}\left(\frac{4a^2+x^2}{4a^2+b^2}\right)$

$\frac{1}{4} = \frac{4a^2b^2+b^2x^2}{4a^2x^2+b^2x^2}$ olur a=1 alalım

$\frac{1}{4} = \frac{4b^2+b^2x^2}{4x^2+b^2x^2}$

$\Rightarrow 4x^2 + b^2x^2 = 16b^2 + 4b^2x^2$

$4x^2 - 3b^2x^2 = 16b^2$

$x^2 = \frac{16b^2}{4-3b^2} \Rightarrow x = \frac{4b}{\sqrt{4-3b^2}}$

③ n spektrometrede merkezden sonraki görülen renk gruplarından merkezden sonra karşılaşılan renk grubuna ait olduğunu gösterir kırınım saçakları
$\frac{\lambda}{d}$ n: maksimum 1 olacak şekilde değerler alabilir ✓

Soru: Deşarj tüpü nasıl çalışır?

Tüp içinde serbest halde bulunan veya uzaydan gelen hızlı ışınlar ile atomdan ayrılan elektronlar uygulanan potansiyel farkı altında qV kinetik enerjisiyle hareket ederlerken tüpteki atomlara çarparak atomdaki e⁻lara belirli bir enerji verirler. Bu enerjiyle bir üst enerji düzeyine geçen e⁻lar yeniden eski enerji konumuna geçerken hV enerjili ışık yayarlar. ✓

Soru: Neden moleküller maddelerde bant spektrumu görürüz?

Molekül halindeki atomların hepsi ayrı ayrı çizgi spektrumuna sahiptirler. Ancak bunlar titreşim, öteleme hareketleri nedeniyle bu spektrumdaki renklerin yeri değiştiğinden bu tür özellik gösterirler. ✓

Titreşim hareketi sonucu oluşan bant spektrum ✓

$eV = \frac{1}{2}mv^2$

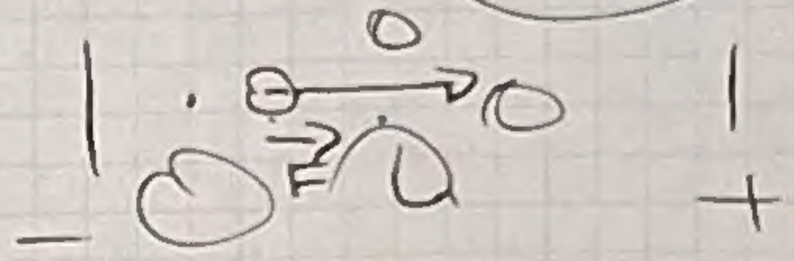

Turan Yüce
mayıs 1991